1 Prova de control

MODEL **B**

Nom _____ Data _____

1 Defineix aquests conceptes.

- Estrella: _____

_____

- Constel·lació: _____

_____

- Galàxia: _____

_____

2 Completa.

El sistema solar està format per una estrella, que és el _____,
i els astres que giren al seu voltant, com _____,
_____ i _____.

3 Què és un planeta? Contesta.

_____

_____

_____

4 Escriu el nom de cada astre del sistema solar.



 MATERIAL FOTOCOPIABLE © 2020 SANTILLANA EDUCACIÓN, S. L. / EDICIONS VORAMAR, S. A.

LIVEWORKSHEETS

5 **Què és un satèl·lit? Quin és el satèl·lit de la Terra? Contesta.**

_____

_____

6 **Explica què és un planeta nan i posa'n un exemple.**

_____

_____

7 **En què es diferencien els asteroides i els meteorits?**

_____

_____

8 **Observa el dibuix i respon.**

- Quin moviment de la Terra representa?

_____

- Quant tarda a fer-lo?

_____

- A què dona lloc aquest moviment?

_____

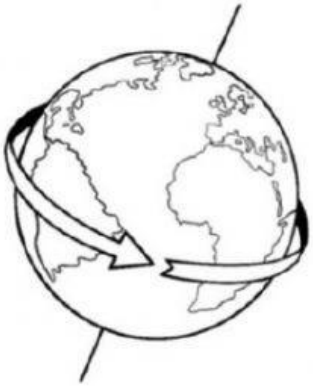

9 **Quin altre moviment fa la Terra? Explica-ho.**

_____

_____

10 **Escriu la fase de la Lluna que corresponga.**

A. _____

B. _____

C. _____

D. _____

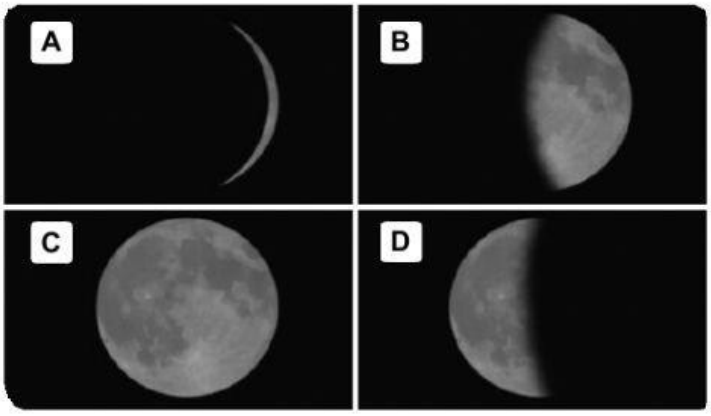

MATERIAL FOTOCOPIABLE © 2020 SANTILLANA EDUCACIÓN, S. L. / EDICIONS VORAMAR, S. A.

LIVEWORKSHEETS