โรงเรียนอนุบาลปะทิว(บางสนพิพิธราษฎร์บำรุง)

**ข้อสอบปรนัยเพื่อประเมินผลตัวชี้วัด** วิชาวิทยาศาสตร์และเทคโนโลยี (วิทยาการคำนวณ)

**ชั้นประถมศึกษาปีที่ 1** **ภาคเรียนที่ 1 ปีการศึกษา 2564**

---

ชื่อ-สกุล.....เลขที่.....ชั้น ป.1/.....

**ตอนที่ 1 ให้นักเรียนเลือกคำตอบที่ถูกต้องเพียงคำตอบเดียว**

1. จากภาพที่กำหนดให้ ภาพใดเป็นภาพที่ประกอบกันแล้ว จะมีลักษณะเหมือนภาพเต็มนี้

ก.  ข. ค.

2. จากภาพที่กำหนดให้ ภาพใดแตกต่างจากภาพอื่น



ก. ข. ค.

3. จากภาพ ภาพใดมีขนาดเท่ากับภาพนี้

ก. ข. 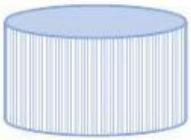 ค.

---



LIVEWORKSHEETS

4. สังเกตภาพที่กำหนดให้ ให้หาจุดแตกต่างของภาพทั้งสอง **มีกี่จุด**



ก. 4 ชุด ข. 5 จุด ค. 6 ชุด

5. จากภาพที่กำหนดให้ ภาพใดที่ไม่ควรจัดใส่กระเป๋านักเรียน

ก. ข. ค.

**ตอนที่ 2** **หางใครเอ๋ย** ให้นักเรียน **ลาก** หางของสัตว์ต่าง ๆ มาต่อกับตัวให้ถูกต้อง





LIVEWORKSHEETS

**ตอนที่ 3** ให้นักเรียน เลือกหมายเลขที่ชิ้นส่วนหุ่นยนต์ มาเรียงต่อกับลำตัวให้ถูกต้อง

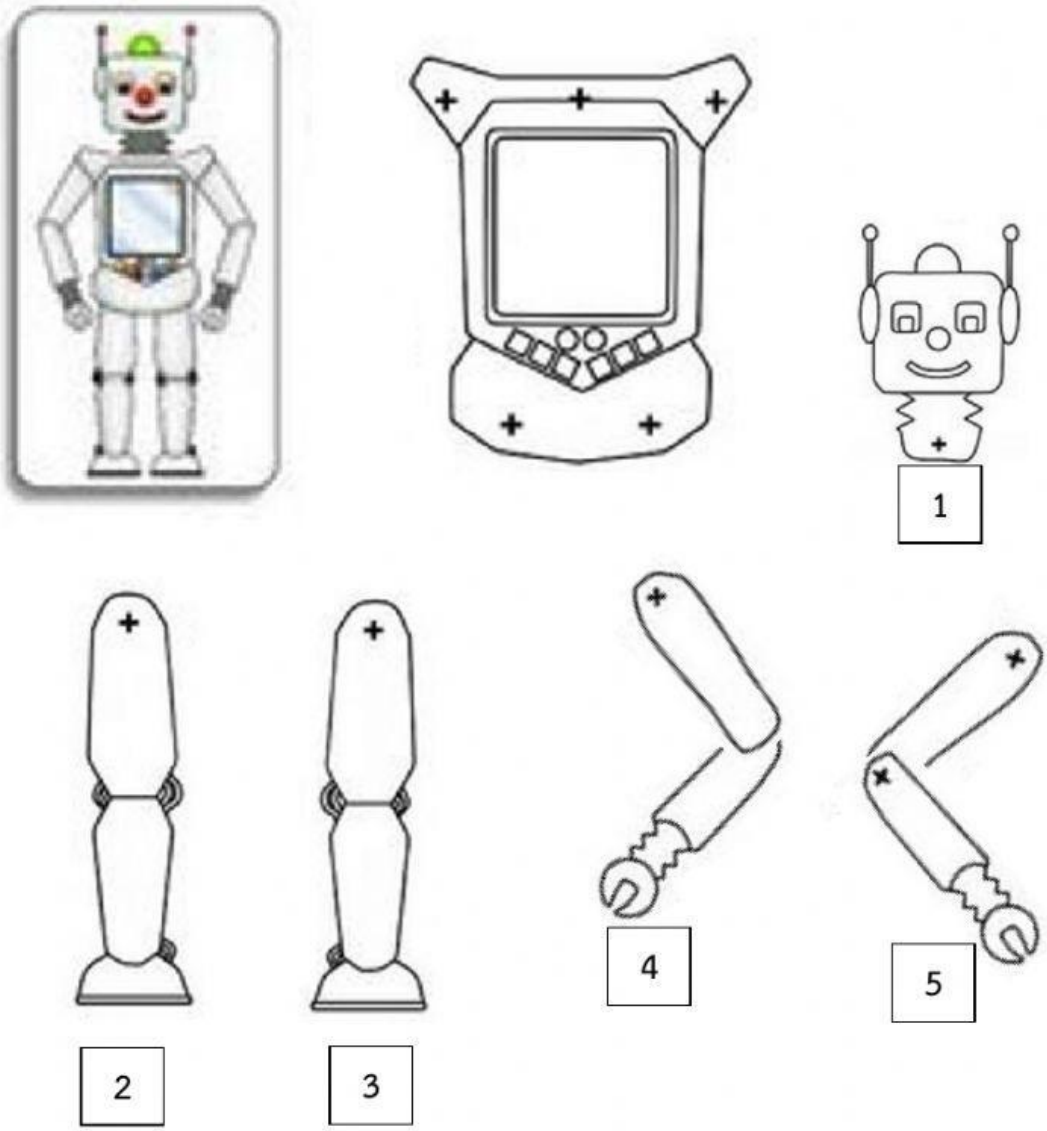




LIVEWORKSHEETS

**ตอนที่ 4** ให้นักเรียน **เรียงลำดับ** เหตุการณ์ต่อไปนี้

อาบน้ำ

ตื่นนอน

แปรงฟัน

ทำความสะอาดห้องเรียน

ไปโรงเรียน

เคารพธงชาติ

รับประทานอาหาร

LIVEWORKSHEETS