Самостоятелна работа – изходно ниво

Математика – 3 клас

1зад. Запиши числата от бодливото сметало.

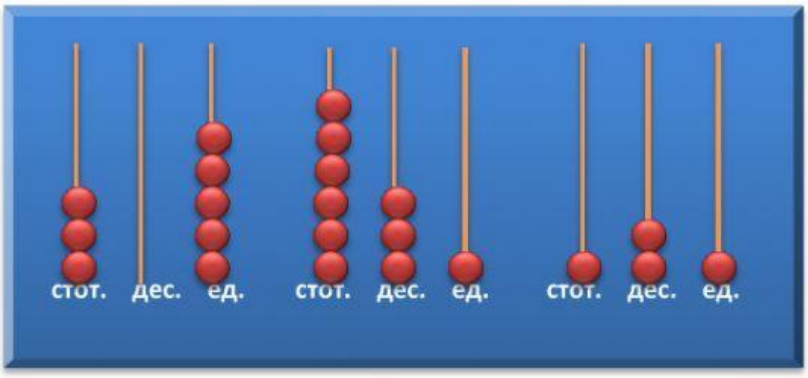

2 зад. Открий пропуснатите числа. Запиши ги.

697 , 698 , ____ , ____ , ____ , 702 , ____ , 704 .

903 , 902 , ____ , ____ , ____ , 898 , ____ , 896 .

3 зад. Представи числата като сбор от стотици, десетици и единици.

758 = ____ стот. + ____ + дес. ____ + ед.

508 = ____ стот. + ____ + дес. ____ + ед.

4 зад. Пресметни.

234	567	134
+ 752	+ 385	+ 429
		238
____	____	____

5зад. Намери разликите.

679	836	700
– 432	– 298	– 374
____	____	____

6 зад. Пресметни произведенията.

321 . 3	218 . 4	125 . 8
____	____	____

LIVEWORKSHEETS

7 зад. Намери частните.

96 : 3 = ____ 540 : 6 = ____ 453 : 3 = ____ 804 : 4 = ____ 721 : 7 = ____

8 зад. Пресметни.

924 : 7 + 178 . 4 = ____ + ____ = ____

9 зад. Намери неизвестното число.

____ . 8 = 52 . 4

____ . 8 = ____

10 зад. Равностранен триъгълник има обиколка 84 мм.Колко милиметра е дължината на едната му страна?

11 зад. Определи вида на всеки триъгълник според ъглите.

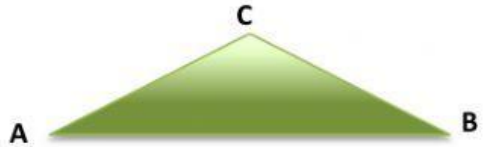



12 зад. Производител на цветя набрал 109 бели рози, които били три пъти по – малко от червените. От всички рози продал половината преди обед, а останалите подредил за тържество. Колко бели и червени е подготвил за тържеството?

LIVEWORKSHEETS