الهدف	كيف تطور نموذج الذرة على مر الزمن؟	
اسم الطالبة - الصف		السابع /

1 **من هو العالم الذي اكتشف النواة؟**

A. تشادويك.
B. رذرفورد.
C. دالتون.
D. جي جي طومسون.

2 **من هو العالم الذي اكتشف النيوترونات؟**

A. تشادويك.
B. رذرفورد.
C. دالتون.
D. جي جي طومسون.

3 **ما نوع الشحنة التي اكتشفها رذرفورد في تجربة رقاقة الذهب؟**

A. شحنة سالبة.
B. شحنة موجبة.
C. لم تكن هناك شحنة.
D. لم يتمكن من تحديد أي شحنة في هذه التجربة.

4 **جسيمات ذرية صغيرة لا تحمل أي شحنة ؟**

A. البروتونات.
B. الإلكترونات.
C. النيوترونات.
D. النواة.

5 **ما التجربة التي قام بها رذرفورد و أثبتت عدم صحة النموذج الذري لطومسون؟**

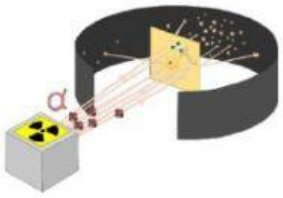

A. تجربة رقاقة الذهب.
B. التجربة النووية.
C. تجربة حلوى البرقوق.
D. تجربة أنابيب أشعة الكاثود.

LIVEWORKSHEETS

6	**ما آخر جسيم تم اكتشافه في الذرة ؟** A. البروتون. B. الإلكترون. C. النيوترون. D. النواة.
7	**مما تتكون الذرة على الأغلب ؟** A. البروتون. B. النيوترون. C. الهواء. D. الفراغ. 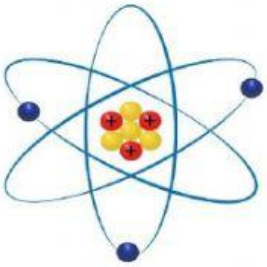
8	**ما سبب الشحنة الموجبة للنواة؟** A. وجود الإلكترونات في النواة. B. وجود البروتونات في النواة. C. وجود النيورتونات في النواة. D. وجود السحابة الإلكترونية. 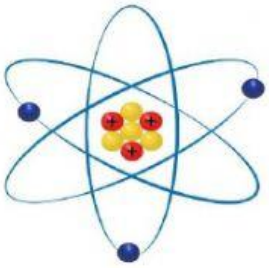
9	**جسيمات ذرية صغيرة تحمل شحنة موجبة؟** A. البروتونات. B. الإلكترونات. C. النيوترونات. D. النواة.
10	**لماذا اندهش طلاب رذرفورد بنتائج تجربة رقاقة الذهب ؟** A. لم يتوقعوا أن ترتد أشعة ألفا من الرقاقة. B. لم يتوقعوا أن تستمر جسيمات ألفا في مسار مستقيم . C. توقعوا أن تنحرف جسيمات ألفا بسبب الإلكترونات. D. توقعوا ألا يرتد من الرقاقة سوى عدد قليل من أشعة ألفا.

almhiri
LIVEWORKSHEETS