فريق التحدي

الدرس : العد بالتجاوز بمقدار 2 و 5 و 10 باستخدام المجموعات المتساوية

- استخدم لتمثيل المجموعات المتساوية عد بالتجاوز:

  

ـــــ مجموعات متساوية تتكون من ـــــ

ـــــ إجمالاً

LIVEWORKSHEETS