EXAMEN TEMA 11

NOMBRE: _____

FECHA: _____ **Nº:** _____ **CLASE:** _____

COLEGIO Torrevilano

NOTA

UTILIZA UNA HOJA A PARTE PARA REALIZAR LOS CÁLCULOS NECESARIOS Y ESCRIBE EL RESULTADO DONDE SE INDIQUE:

1. Inés tiene una cuerda de 36 cm de largo y necesita construir con ella un cuadrado lo mas grande posible. ¿Cuánto tiene que medir cada lado? Y si quiere construir un triángulo equilátero, ¿cuánto medirá el lado del triángulo?



_____cm cada lado

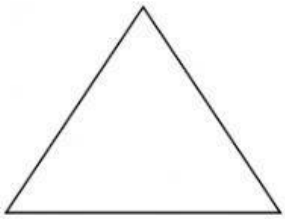

_____cm cada lado

2. Carlos ha dibujado una casa, ¿cuál es el perímetro de su casa?

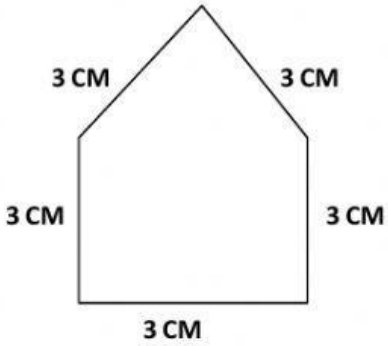

SOLUCIÓN: _____ cm

3. Manolo tiene cuatro palillos: dos miden 7 cm y los otros dos miden 5 cm ¿qué cuadrilátero podrá construir con esos 4 palillos? ¿Cuál será su área?

Podrá construir un _____.

Su área será _____cm.

LIVEWORKSHEETS