19. 如果一名学生跑步的速度是每小时4公里，那么他完成1公里所需的时间是多少？

A 15 分钟　　B 30 分钟
C 45 分钟　　D 60 分钟

20. 以下显示有关废物 M 的资料。

- 材料来自石油
- 不可生物降解

根据资料，以下哪项有关废物 M 的说明是正确的？

A 可以被土壤吸收
B 可以被微生物分解
C 随意丢弃废物 M 会污染土地
D 废物 M 的最佳处理方法是焚烧

21. 图 11 显示两种物品。



图 11

图 11 所指的部分具有什么性质？

A 有弹性　　B 电导体
C 热导体　　D 透明体

22. 图 12 显示一个现象。

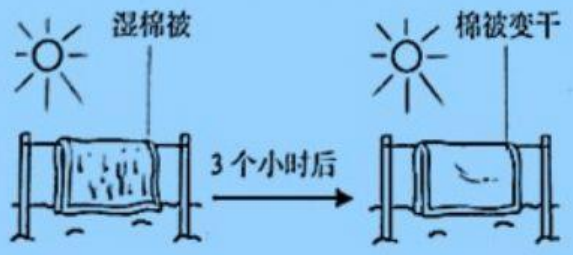

图 12

图 12 的现象与水的哪个形态变化过程有关？

A 凝聚　　B 蒸发
C 融化　　D 沸腾

23. 图 13 显示一项有关溶液 X 的化学性质的实验结果。

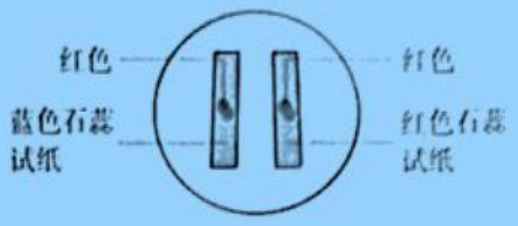

图 13

以下哪个物品的化学性质测试会显示同样的结果？

A

B

C

D

24. 图 14 显示食物保存法 P 的步骤。

把食物洗净、切块和高温蒸煮
↓
把食物装进容器并加入调味料
↓
抽出容器内的空气，并加盖密封
↓
以高温加热来消毒，待容器冷却后贴上标签

图 14

P 最有可能是什么食物保存法？

A 盐腌
B 上蜡
C 腌渍
D 装罐和装瓶

LIVEWORKSHEETS