ELS MOVIMENTS DE LA TERRA

Moviment de rotació

La Terra gira obre ella mateixa

Tarda 24 hores = 1 dia

Es creen el dia i la nit

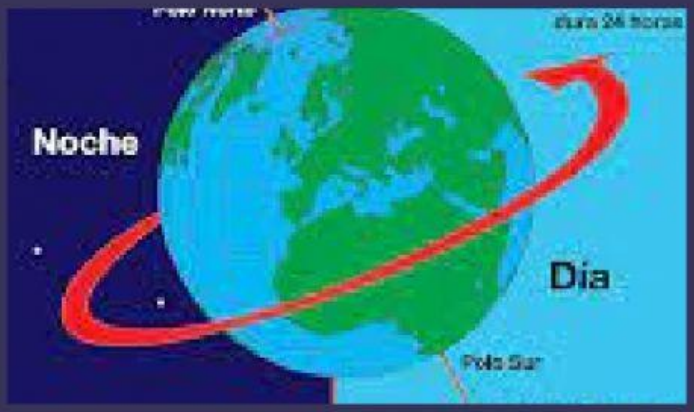

Moviment de translació

La Terra fa voltes al sol

Tarda 365 dies = 1 any

Es creen les estacions

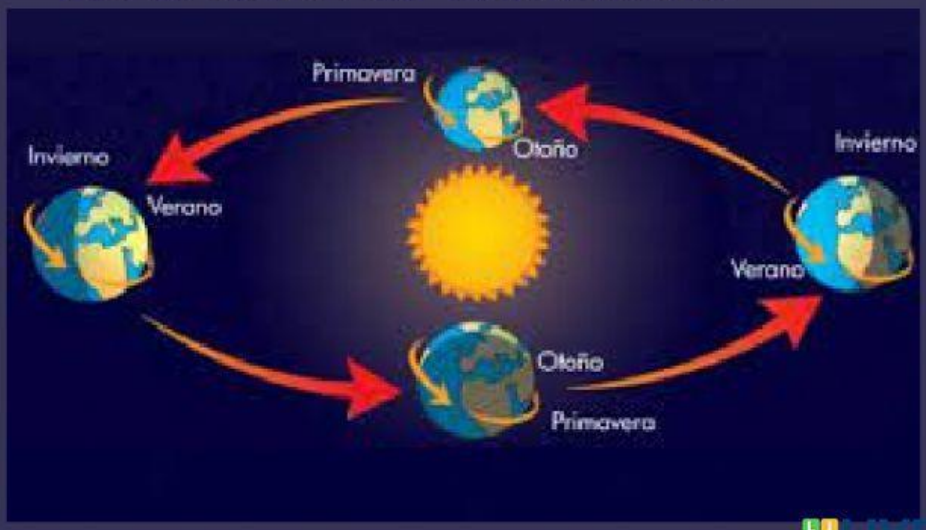

LIVEWORKSHEETS

1. Quins són els dos moviments de la Terra?

2. A quin moviment la Terra fa voltes al Sol?

a-Rotació

b-Translació

3. Relaciona cada imatge amb el moviment

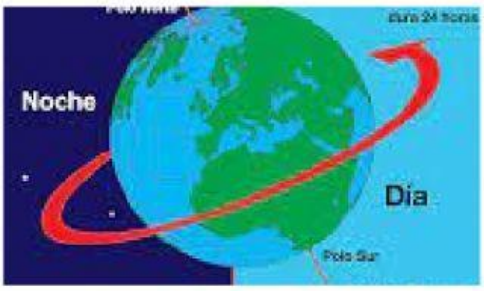

Translació

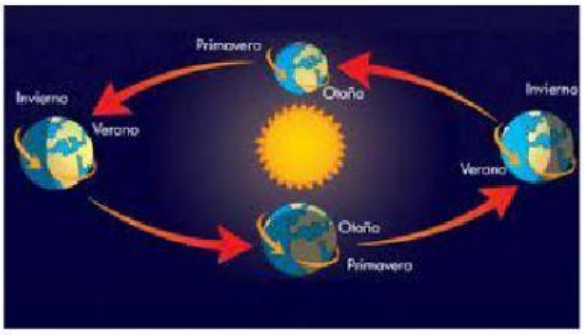

Rotació

LIVEWORKSHEETS

4. Quin temps tarda la terra en fer la volta al sol?

5. Quin temps tarda la terra en fer una volta sobre ella mateixa?

6. Relaciona cada moviment amb el resultat

El dia i la nit	Translació
Primavera, estiu, hivern, tardor	Rotació

LIVEWORKSHEETS