SD MUHAMMADIYAH 2 ALTERNATIF
KOTA MAGELANG

Nama :

Kelas/presensi :

Pendalaman Materi Bahasa Indonesia

A. Pilihlah jawaban yang paling tepat!

1. .... rumahmu?

   Kata tanya yang tepat untuk melengkapi kalimat di atas adalah...

   A. apa

   B. siapa

   C. di mana

2. pasar – Ino – menemani – ibu – ke

   kalimat yang tepat dari kata yang diacak adalah...

   A. Ino menemani ibu ke pasar

   B. Pasar menemani Ibu ke Ino

   C. Ibu menemani pasar ke Ino

3. Ungkapan santun untuk menawarkan bantuan kepada orang lain adalah...

   A. "Suruh Ranti saja yang bawa, Bu."

   B. "Mari saya bantu membawakan barangnya, Bu."

   C. "Aku tidak kuat membawa barang ini, Bu."

4. Rumah Ino ada di ujung jalan.

   Kalimat tanya yang sesuai dengan jawaban di atas adalah...

   A. Siapa nama lengkap Ino?

   B. Di mana letak rumah Ino?

   C. Pukul berapa Ino pulang ke rumah?

5. Kanan, kiri, depan, dan belakang adalah ... pada denah.

   A. kalimat

   B. berita

   C. petunjuk

6. Gambar arah mata angin yang benar ditunjukkan oleh...

   A.

   B.

   C. 

7. Yang termasuk informasi pada denah adalah...

   A. ukuran rumah

   B. luas bangunan

   C. nama jalan

LIVEWORKSHEETS

8. Kalimat yang tepat untuk meminta maaf adalah…
   A. "Maaf, saya lupa membawa buku."
   B. "Memaafkan adalah sikap terpuji."
   C. "Wah, seharusnya dia meminta maaf padaku."
9. Kalimat yang tepat untuk penjual menawarkan dagangannya adalah…
   A. "Mari, Dik. Kuenya murah tapi enak, seribu saja."
   B. "Bu, saya ingin beli kue."
   C. "Pak, kuenya berapa, ya?"
10. Penggalan kata ***belajar*** adalah…
   A. be – la – jar
   B. bel – a – jar
   C. bela – jar
11. Penggalan kata ***dagangan*** adalah…
   A. dag – gang – an
   B. da – gang – an
   C. dagang – an
12. Perhatikan denah di bawah ini!

   Bangunan masjid terletak di Jalan…
   A. Dahlia
   B. Jalan Melati
   C. Jalan Kenanga
13. Perhatikan gambar denah di bawah ini!

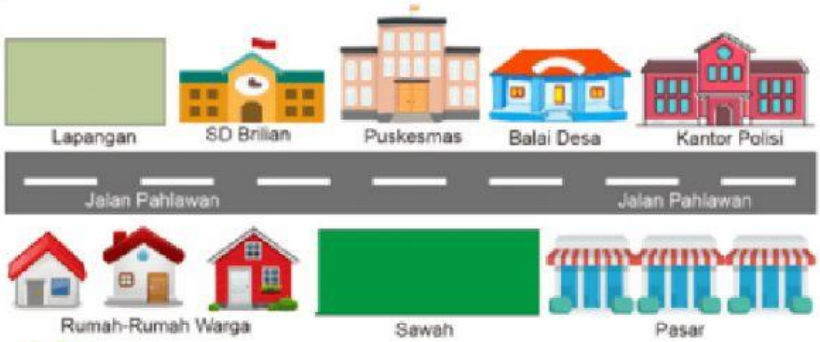

LIVEWORKSHEETS

Kantor Polisi terletak di sebelah … Balai Desa

A. kanan

B. kiri

C. seberang

14. Perhatikan gambar denah di bawah ini!

Rumah Karin terletak di sebelah kanan rumah…

A. Anita

B. Sinta

C. Bayu

15. Perhatikan gambar denah di bawah ini!

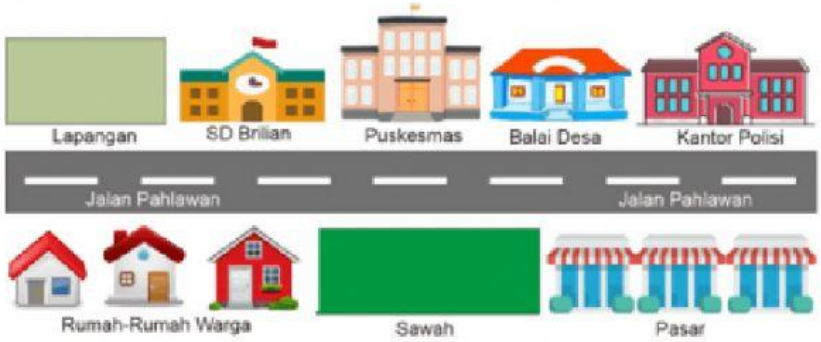

Bangunan di antara Puskesmas dan Kantor Polisi adalah…

A. Sawah

B. Jalan Pahlawan

C. Balai Desa

LIVEWORKSHEETS