Sumemos y restemos utilizando la gráfica de círculos

Nombre:

Grado:

1. En la fila para entrar al estadio, Miguel está en 7.° lugar y detrás de él hay 2 personas. ¿Cuántas personas hay en la fila?

① Dibuja la gráfica de círculos correspondiente.



② Escribe la O:

③ Calcula la respuesta. _____ = _____

R: _____personas.

2. En la competencia de patinaje hay 10 niñas. Beatriz está en 9.° lugar. ¿Cuántas niñas hay después de ella?

① Dibuja la gráfica de círculos correspondiente.



② Escribe la O:

③ Calcula la respuesta. _____ = _____

R: _____niñas.

LIVEWORKSHEETS

3. Hay 5 naranjas y 4 niños toman una naranja cada uno.
¿Cuántas naranjas quedan?

① Dibuja la gráfica de círculos correspondiente.

Naranjas	Empieza aquí										
Niños	Empieza aquí										

Utiliza los círculos que necesites en orden y según el color.



② Escribe la O:

③ Calcula la respuesta. _____ = _____

R: _____naranjas.

4. Seis (6) niños comen una manzana cada uno y quedan 4 manzanas.
¿Cuántas manzanas había?

① Dibuja la gráfica de círculos correspondiente.

Niños	Empieza aquí										
Manzanas	Empieza aquí										

Utiliza los círculos que necesites en **orden** y según el **color**.

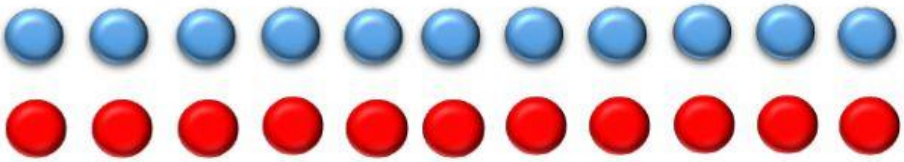

② Escribe la O:

③ Calcula la respuesta. _____ = _____

R: _____manzanas.

LIVEWORKSHEETS

5. Mario compró 2 canicas. Ángela compró 4 más que Mario. ¿Cuántas canicas tiene Ángela?

① Dibuja la gráfica de círculos correspondiente.

Canicas de Mario	Empieza aquí									
Canicas de Ángela	Empieza aquí									

Utiliza los círculos que necesites en **orden**.

② Escribe la O:

③ Calcula la respuesta. _____ = _____

R: _____canicas.

6. Lucas siembra 12 árboles. Ana siembra 6 menos que Lucas. ¿Cuántos árboles siembran entre los dos?

① Dibuja la gráfica de círculos correspondiente.

Árboles de Lucas	1	2	3	4	5	6	7	8	9	10	11	12
Árboles de Ana	1	2	3	4	5	6	7	8	9	10	11	12

Utiliza los círculos que necesites en **orden** y según el **color**.



② Escribe la O:

③ Calcula la respuesta. _____ = _____

R: _____árboles.

LIVEWORKSHEETS