CÁLCULO Y OPERACIONES.

FICHA 5.

1. Calcula mentalmente:

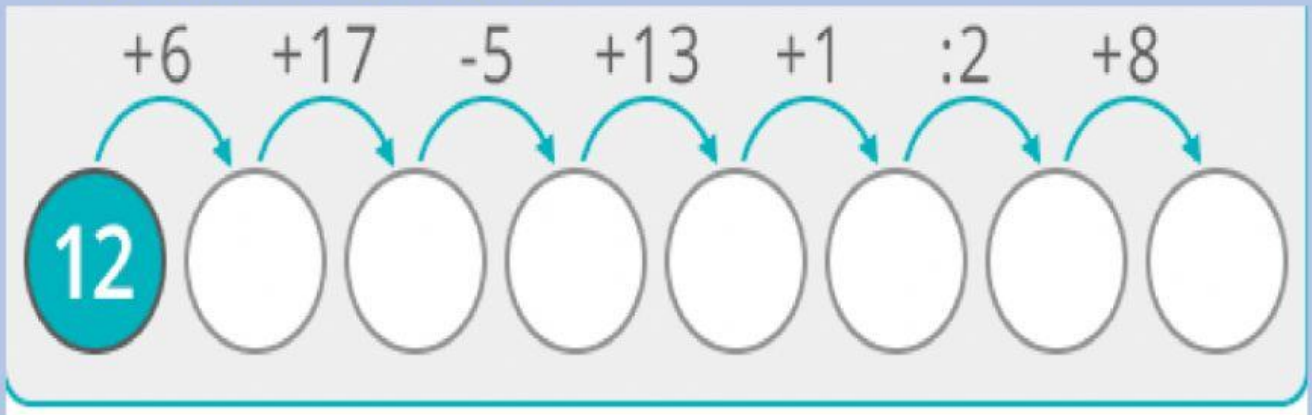

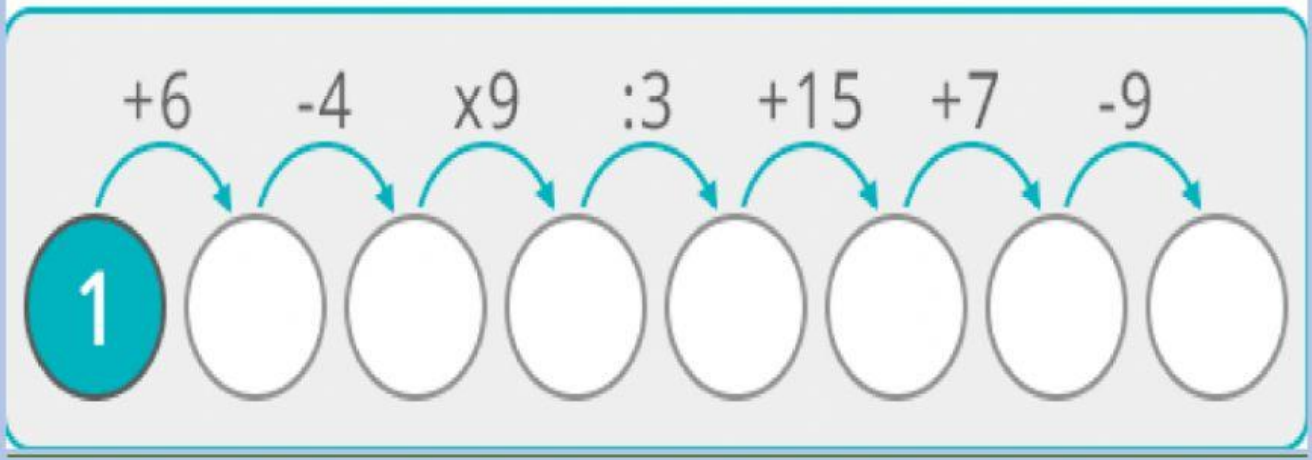

LIVEWORKSHEETS

2.Aprende:



- ¿Cuánto cuesta aproximadamente un viaje a Londres y a Roma?

  Aproximadamente cuesta 1.300 €.

  476 + 824 =
  7 > 5 ↓ ↓ 2 < 5
  500 + 800 = 1.300

  Los dos sumandos tienen 3 cifras, aproxima a las centenas.

- ¿Cuánto cuesta aproximadamente más un viaje a París que a Roma?

  Aproximadamente cuesta 1.300 €.

  1.158 − 824 =
  5 = 5 ↓ ↓ 2 < 5
  1.200 − 800 = 400

  El término menor tiene 3 cifras, aproxima a las centenas.

- ¿Cuánto cuestan aproximadamente 2 viajes a Sevilla?

  Aproximadamente cuestan 180 €.

  87 × 2 =
  7 > 5 ↓
  90 × 2 = 180

  El factor mayor tiene 2 cifras, aproxima a las decenas.

3.Observa los ejemplos y calcula:

25 : 10 = 2,5 — 1 cero → 1 lugar a la izquierda

43 : 100 = 0,43 — 2 ceros → 2 lugares a la izquierda

82 : 1.000 = 0,082 — 3 ceros → 3 lugares a la izquierda

- 32 : 10 = ____
- 136 : 10 = ____
- 1.456 : 10 = ____
- 5 : 10 = ____
- 96 : 100 = ____
- 40 : 100 = ____
- 369 : 100 = ____
- 3.256 : 100 = ____
- 8 : 100 = ____
- 7 : 1.000 = ____
- 839 : 1.000 = ____
- 300 : 1.000 = ____

LIVEWORKSHEETS

4. Utiliza la calculadora para resolver estas operaciones:



- ¿Cuánto valen aproximadamente la moto y el patinete?

  Valen _____ €, aproximadamente.

- ¿Cuánto vale la bici más que el patinete, aproximadamente?

  Vale _____ € más, aproximadamente.

- Tengo un presupuesto de 700 € para comprar 2 bicicletas y 3 patinetes. ¿Tengo dinero suficiente?

  _____ tiene dinero suficiente.

5. Aproxima la decena más cercana y une la caja a su calcetín:

LIVEWORKSHEETS

6.Arrastra las bolitas a la centena más cercana al número que contienen:



LIVEWORKSHEETS