Resol el següent puzle. Calcula el preu final dels següents increments o descomptes per a saber on va cada imatge. Arrossega les imatges fins a la solució.

Descompte del 30% sobre 80



Descompte del 50% sobre 100

Increment de 21% sobre 45

Increment de 50% sobre 50

Descompte de 10% sobre 70

Increment de 20% sobre 60

Descompte de 40% sobre 25



Increment de 25% sobre 80



Descompte del 50% sobre 40

50	75	20
72	100	15
63	56	54,45

LIVEWORKSHEETS