LKPD

Muatan Pelajaran Matematika
Mengenal Bangun Ruang

Nama : .....

Kelas : .....

A. Judul : Mengenal Bangun Ruang

B. Tujuan Pembelajaran

1. Setelah mengamati gambar, siswa mampu mengidentifikasi benda-benda yang berbentuk bola, tabung, balok, dan kubus di kelas dengan bekerja sama.
2. Setelah mengidentifikasi, siswa mampu mengelompokkan benda-benda konkret berdasarkan bentuk bangun ruangnya dengan tepat.

C. Langkah-langkah kegiatan

1. Coba amati lagi video yang ditampilkan oleh guru !
2. Kerjakan soal berikut dengan cara yang sudah dicontohkan oleh guru

Ayo Pecahkan !

Untuk menjawabnya kita simak video berikut !

LIVEWORKSHEETS

Ayo Mengamati !

1. Bentuk Balok

Perhatikan gambar di samping.

Gambar tersebut dinamakan bangun balok.

Balok memiliki sisi yang ukuran dan bentuk sama.

Sisi tersebut adalah sisi atas dan sisi bawah.

Sisi samping kiri dan kanan.

Serta sisi muka dan belakang.

2. Bentuk Kubus

Sekarang, perhatikan gambar berikut

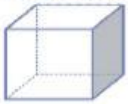

Bangun di atas dinamakan kubus.

Kubus mempunyai enam sisi.

Bentuk dan ukuran sisinya sama.

3. Bentuk Bola

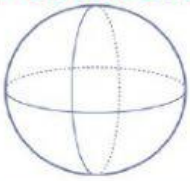

Tahukah kamu bentuk di samping?

Ya, kamu benar.

Gambar di samping adalah bentuk bola.

LIVEWORKSHEETS

4. Bentuk Tabung

Bangun di atas dinamakan tabung.
Tabung mempunyai tutup dan alas yang berbentuk lingkaran.
Tutup dan alas mempunya bentuk dan ukuran yang sama.

Evaluasi Pemecahan Masalah

Sekarang, ayo kita coba !
Isilah dengan jawaban yang tepat !

No.	Benda	Nama Bangun Ruang
1		....
2		....
3		....
4		....
5		....

LIVEWORKSHEETS