ورقة عمل تفاعلية (التمثيل بالنقاط)

اسم الطالبة / الفصل /

كم طالبا يستغرق أقل من ٣٥ دقيقة في حل الواجب المنزلي :-

أ) ٤ ب) ٧

ج) ٨ د) ٢٠

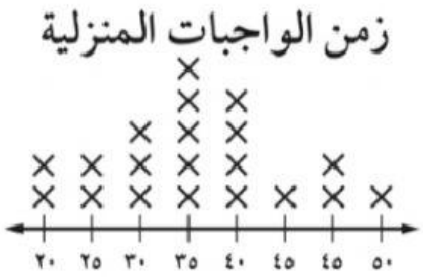

كم عاملًا باع ٧ قمصانٍ أوْ أكثرَ؟

أ) ٣ ب) ٥ جـ) ٦ د) ٧

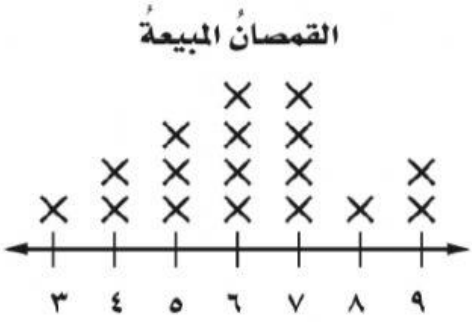



بكم يزيد عدد الكتب التي ثمنها 25 ريالاً على تلك التي ثمنها 13ريالاً ؟

معلمة المادة / فدوى الغامدي

LIVEWORKSHEETS