LEMBAR KERJA PESERTA DIDIK (LKPD)

UNSUR – UNSUR LINGKARAN
kelas VI SDN Kosambi Dalam I
Tahun Pelajaran 2021/2022

NAMA :

NO ABSEN :

LIVEWORKSHEETS
LIVEWORKSHEETS

Perhatikan Video berikut !

A. Pilihlah jawaban yang paling tepat!

1. Benda yang berbentuk lingkaran adalah ….
   a. jendela
   b. uang kertas
   c. uang logam
   d. kaleng susu
2. Yang tidak termasuk unsur-unsur lingkaran adalah adalah ….
   a. tembereng
   b. sudut
   c. tali busur
   d. juring
3. Garis yang menghubungkan sembarang dua titik pada lingkaran disebut ….
   a. busur
   b. tali busur
   c. tembereng
   d. juring
4. Daerah pada lingkaran yang dibatasi oleh busur lingkaran dan tali busur disebut ….
   a. busur
   b. tali busur
   c. tembereng
   d. juring
5. Gambar di samping adalah unsur lingkaran yang disebut ….
   a. busur
   b. tali busur
   c. tembereng
   d. juring

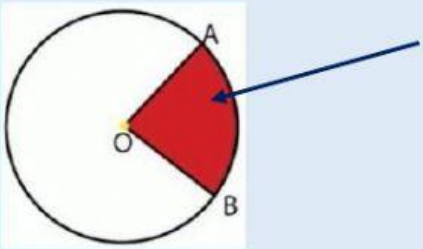

LIVEWORKSHEETS LIVEWORKSHEETS

B. Letakkan unsur-unsur lingkaran berikut pada kolom yang sesuai!

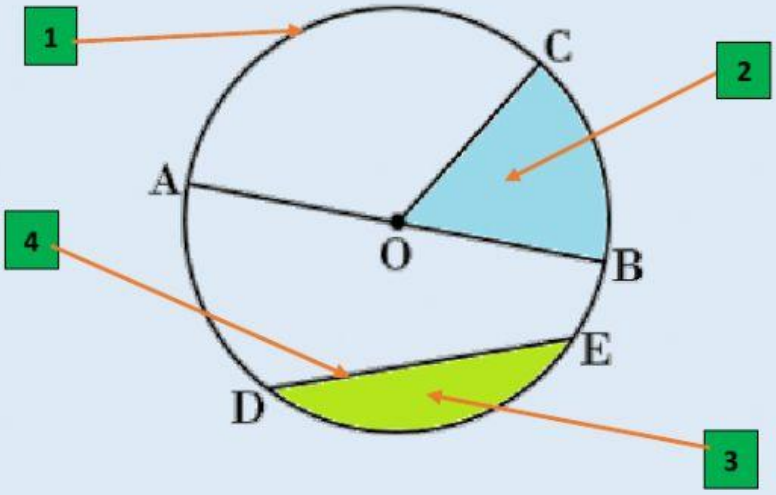

- Tali Busur
- Busur lingkaran
- Tembereng
- Juring

1	2	3	4

C. Tariklah garis pada kotak yang memuat jawaban yang benar!

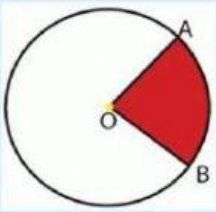

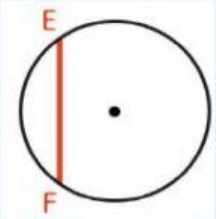

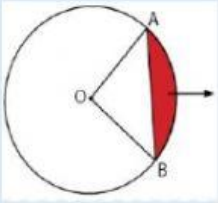

- Tali Busur
- Juring
- Busur lingkaran
- Tembereng

LIVEWORKSHEETS
LIVEWORKSHEETS