姓名：　　班级：

- 请仔细观看以下教学视频，它和你们要做的练习有关哦。
- 如果视频里有练习题，你可暂停那视频然后解答。过后继续观看视频和检查答案。这样你就可以做到额外的练习哦！书中自有黄金屋，视频里也有额外练习给你们尝试哦！
- 如果还是不明白的话，你可以私底下告诉刘老师哦。老师会收集题目然后我们安排特定时间进行 Google Meet 讨论功课。
- Sila tonton video di bawah dengan teliti, sebab ia ada berkenaan dengan kerja rumah anda.
- Sekiranya terdapat soalan Matematik dalam video klip, anda boleh pause video itu dan cuba menjawab. Selepas itu, anda teruskan tonton video dan semak jawapan. Dengan cara ini, anda dapat mencuba kerja rumah tambahan.
- Kalau anda masih tidak faham, anda boleh pm kepada cikgu. Cikgu akan berkumpul soalan dan atur masa menjalankan Google Meet untuk berbincang soalan tersebut.

https://www.youtube.com/watch?v=JSfChucj9Kk

LIVEWORKSHEETS

A. 写出算式

1.

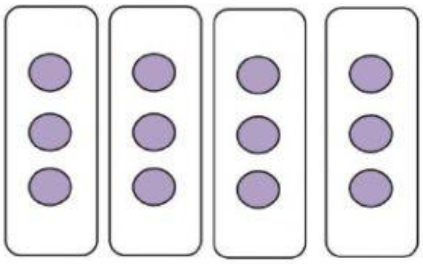

4 × _____

2.

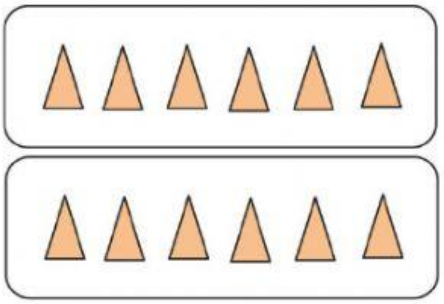

_____ × _____

3.



x =

4.

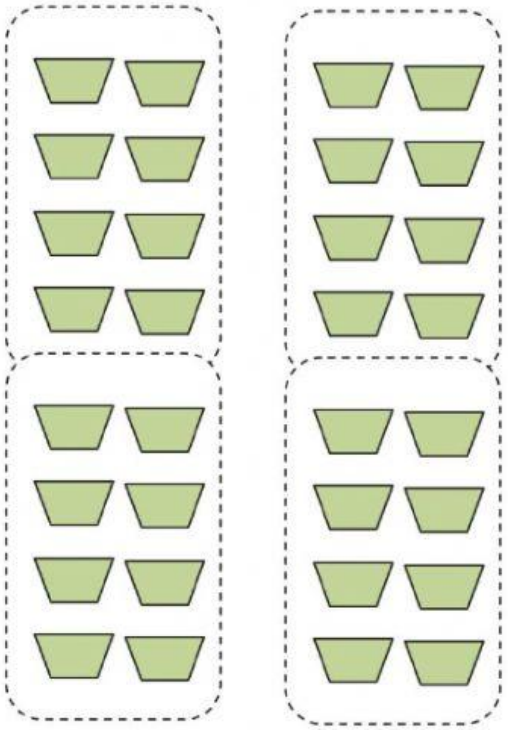

x =

LIVEWORKSHEETS

A 圈一圈，然后写出除法算式。

1 8只发夹，分成每包4只。可分成 ☐ 包。



☐ ÷ ☐ = ☐

2 12只发夹，分成每包3只。可分成 ☐ 包。



☐ ÷ ☐ = ☐

B 画线平分钥匙圈，然后写出除法算式。

1 2人平分6枚



每人得 ☐ 枚。

☐ ÷ ☐ = ☐

2 3人平分6枚



每人得 ☐ 枚。

☐ ÷ ☐ = ☐

LIVEWORKSHEETS

A 用减法计算以下各题。

1 $20 \div 5 = \square$

$20 - 5 = 15$
$15 - 5 =$

减了 $\square$ 次。

2 $30 \div 6 = \square$

减了 $\square$ 次。

B 用乘法计算以下各题。

1 $18 \div 2 = \square$

$\square \times 2 = 18$

2 $27 \div 9 = \square$

$\square \times 9 = 27$

3 $56 \div 7 = \square$

4 $64 \div 8 = \square$

LIVEWORKSHEETS