# Ejercicios de repaso

4°

## UNIDADES DE MILLÓN

Relaciona las dos columnas

| | |
|---|---|
| 5,267,531 | 3,000,000+2000+500+40+8 |
| 7,012,504 | Siete millones doce mil quinientos cuatro. |
| 3,002,548 | 7,000,000 + 100,000 + 20,000 + 500 + 40 |
| 7,120,540 | Cinco millones doscientos sesenta y siete mil quinientos treinta y uno. |
| 3,200,504 | 3 unidades de millón + 2 centenas de millar + 5 centenas + 4 unidades. |

## FRACCIONES

Arrastra y coloca la fracción que le corresponda a cada imagen.

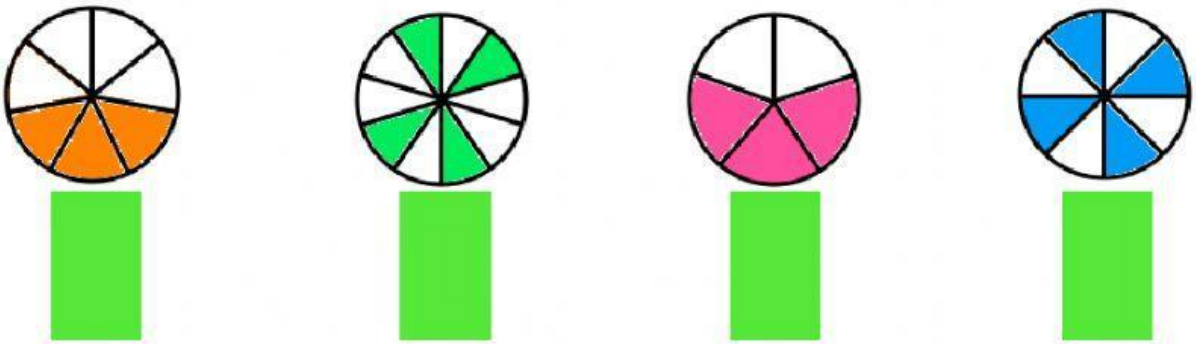

$\frac{3}{5}$ $\frac{4}{8}$ $\frac{4}{10}$ $\frac{3}{7}$

LIVEWORKSHEETS

# NÚMEROS DECIMALES

Escribe cómo se leen las siguientes cantidades.

45.003 _____

360.18 _____

5.0549 _____

124.6 _____

# FRACCIONES DECIMALES

Selecciona la manera correcta de leer cada fracción decimal.

$479\frac{15}{100}$

- Cuatrocientos setenta y nueve enteros quince centésimos
- Cuatrocientos setenta y nueve quince décimos

$5\frac{678}{1000}$

- Cinco décimos seiscientos setenta y ocho milésimos
- Cinco enteros seiscientos setenta y ocho milésimos

$34\frac{2}{10}$

- Treinta y cuatro enteros dos centésimos
- Treinta y cuatro enteros dos décimos

$18\frac{23}{10{,}000}$

- Dieciocho enteros veintitrés diezmilésimos
- Dieciocho veintitrés diezmilésimos

LIVEWORKSHEETS

# SÓLIDOS GEOMÉTRICOS

Escribe el nombre de cada parte que se señala en el sólido geométrico.

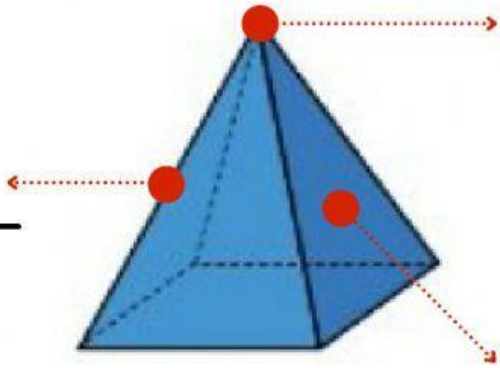

Relaciona las columnas según las características del sólido geométrico.

| | | |
|---|---|---|
| Tiene todas sus caras iguales. |  | CONO |
| Tiene un vértice en la cúspide y una base circular. | 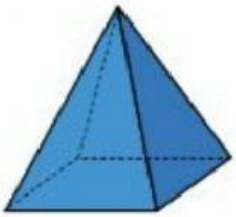 | CUBO |
| Tiene solo una base, sus caras laterales son triángulos. | | PRISMA RECTANGULAR |
| Tiene dos bases iguales, sus caras laterales son rectángulos. | 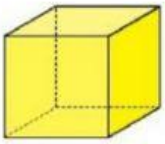 | PIRÁMIDE CUADRANGULAR |

LIVEWORKSHEETS