@high5teacherrocio

CLASIFICACIÓN DE TRIÁNGULOS

Vamos a hacer una actividad para clasificar los triángulos.

Pero antes vamos a recordar la principal característica del triángulo.

Los triángulos son los polígonos que tienen _____ lados.

AHORA VAMOS A EMPEZAR A CLASIFICARLOS, TIENES QUE UNIR EL TRIÁNGULO CON LA FRASE QUE CORRESPONDA.

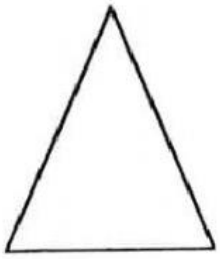

Isosceles.

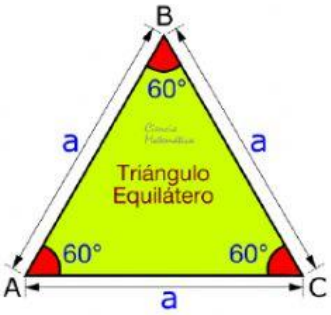

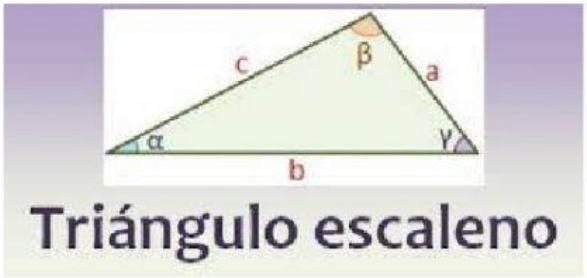

TODOS SUS LADOS SON IGUALES

TIENE SUS TRES LADOS DISTINTOS

SOLO DOS DE SUS LADOS SON IGUALES

LIVEWORKSHEETS

CLASIFICACIÓN DE CUADRILÁTEROS

Un cuadrilátero es un polígono que tiene _____lados.

¿Te acuerdas lo que eran las rectas paralelas?

Aquellas rectas que nunca se cruzan entre sí.

_____

_____

@high5teacherrocio

Dentro de la clasificación de los cuadriláteros

Tenemos el_____

El _____ y el_____

AHORA UNE CON LA RESPUESTA CORRECTA.

PARALELOGRAMO

TRAPECIO

TIENE DOS LADOS PARALELOS

NINGÚN LADO PARALELO

TIENE SUS LADOS OPUESTOS PARALELOS COMO EL RECTÁNGULO O CUADRADO

LIVEWORKSHEETS