Ⓑ 回答以下的问题。 6.1.4 TP 2 TP 3

1 图 1 显示 P 盒子、Q 盒子和边长 1 cm 的正方体。

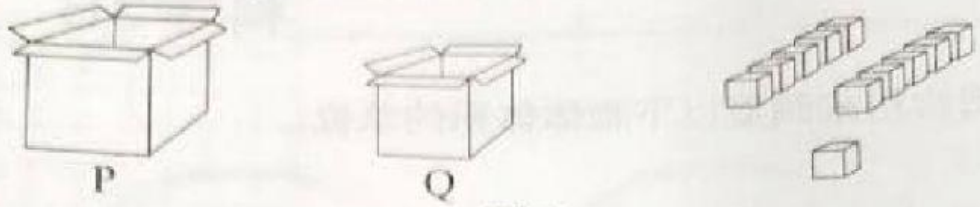

图 1

表 1 显示 P 盒子和 Q 盒子可以容纳的正方体数量。这两个盒子的体积是多少？

盒子	P	Q
所能容纳的正方体数量（个）	96	24
体积（cm^3）		

表 1

2 图 2 显示 R 和 S 盒子和边长 2 cm 的正方体。

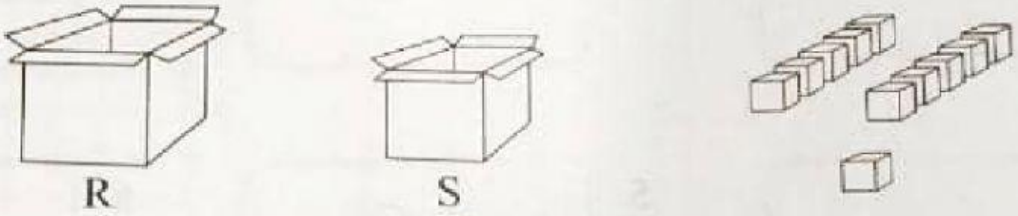

图 2

表 2 显示 R 和 S 盒子可以容纳的正方体数量。盒子的体积是多少？

盒子	R	S
所能容纳的正方体数量（个）	60	30
体积（cm^3）		

表 2

你能算出这个中空的模型是由多少个边长 1 cm 的正方体组成的吗？它的体积是多少？

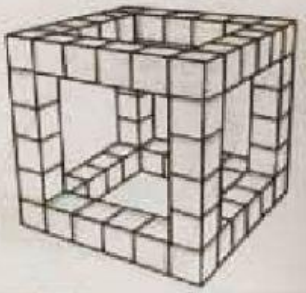

这个中空的模型是由 ____ 个 1 cm 的正方体组成，总体积是 ____。

LIVEWORKSHEETS