Matemáticas 1

Densidad de fracciones y números decimales

Ubica las siguientes fracciones $\frac{7}{5}, \frac{8}{15}, \frac{19}{6}, \frac{7}{8}, \frac{4}{3}, \frac{39}{9}$



Anota la fracción que se ubica exactamente a la mitas entre los dos numero

$\frac{1}{2}, —, 1$ $\frac{1}{8}, —, \frac{2}{8}$ $\frac{1}{32}, —, \frac{2}{32}$ $\frac{1}{4}, —, \frac{2}{4}$ $\frac{1}{16}, —, \frac{2}{16}$ $\frac{3}{5}, —, \frac{4}{5}$

Observa las rectas y escribe la fracción que corresponda a cada línea marcada

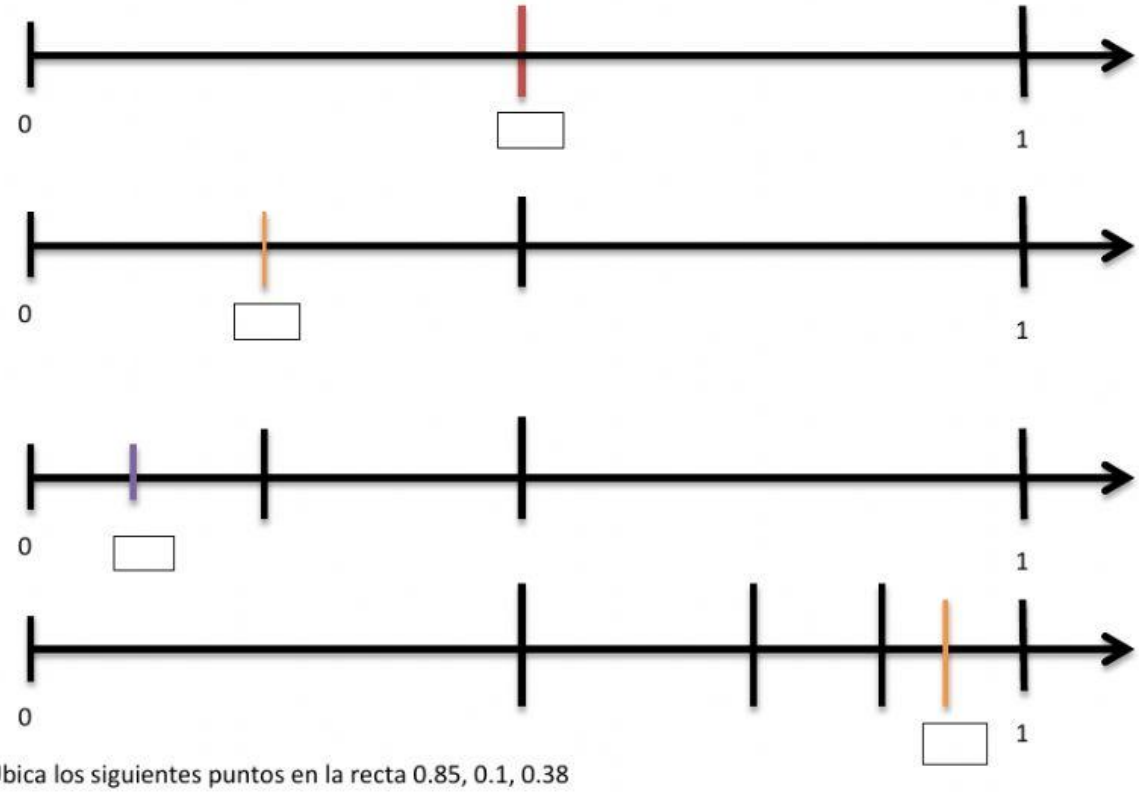

Ubica los siguientes puntos en la recta 0.85, 0.1, 0.38

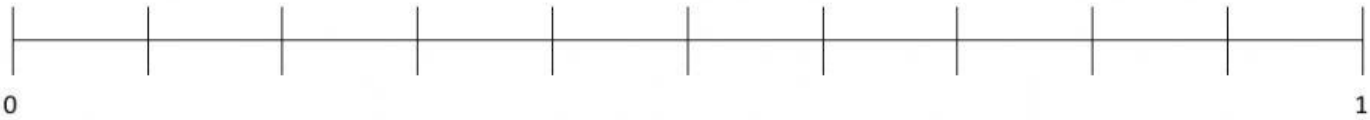

LIVEWORKSHEETS