Tipos de ángulos

1.- Clasifica los siguientes ángulos según sean agudos, obtusos o rectos.



ÁNGULOS AGUDOS	ÁNGULOS RECTOS	ÁNGULOS OBTUSOS

2.- Escribe el nombre del ángulo que forman las manecillas de cada reloj.

LIVEWORKSHEETS

3.- Completa las oraciones con las siguientes palabras.

LLANO	COMPLETO	RECTO	AGUDO	OBTUSO	90°

- Este ángulo 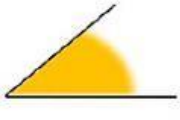 es un ángulo _____
- Un ángulo recto mide _____
- Este ángulo 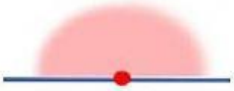 se llama ángulo _____
- Este ángulo es un ángulo _____
- Este ángulo 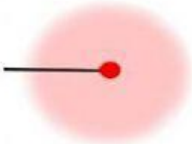 se llama ángulo _____
- Este ángulo es un ángulo _____

4.- Identifica las partes del ángulo.

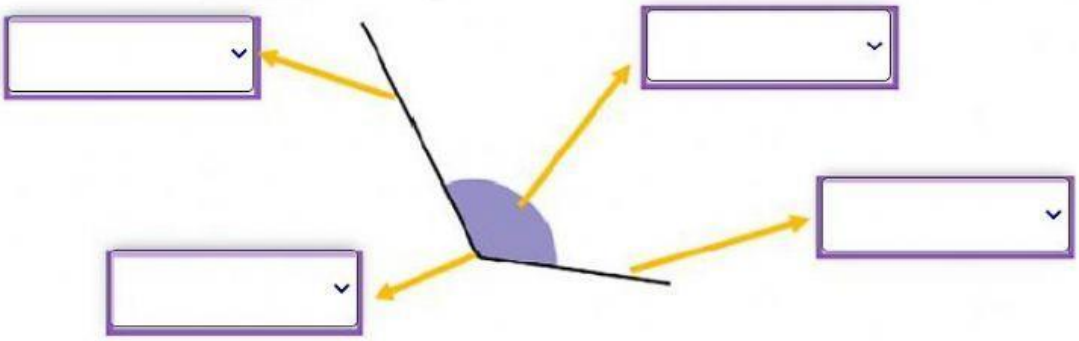

LIVEWORKSHEETS

5.- Observa las siguientes imágenes y contesta qué tipo de ángulos forman los deportistas.

LIVEWORKSHEETS

LIVEWORKSHEETS