PHIẾU BÀI TẬP TOÁN

ƯỚC LƯỢNG

1 **Viết số** vào chỗ chấm.



a) **Ước lượng.**

– Các con chim xếp thành ..... hàng ngang.

– Số con chim ở các hàng **gần bằng nhau.**

– Hàng đầu có ..... con chim.

– Mỗi hàng có khoảng ..... con chim.

– **Đếm** số con chim theo các hàng (đếm thêm 10):

10, 20, ..., ...

– Tất cả **có khoảng** ..... con chim.

b) **Đếm** (đếm từng con chim).

Có tất cả ..... con chim.

Em đếm xem mỗi hàng có bao nhiêu con.

LIVEWORKSHEETS

LIVEWORKSHEETS

Số?

2

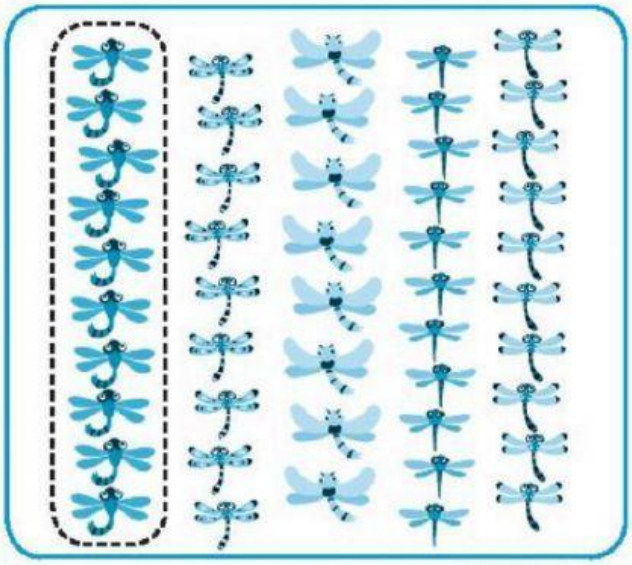

Ước lượng:

Có khoảng .....

con chuồn chuồn.

Đếm:

Có ..... con

chuồn chuồn.

3



Ước lượng: Có khoảng ..... con gà.

LIVEWORKSHEETS

LIVEWORKSHEETS