1. **Une el nombre con el planeta correspondiente.**



Sol Venus Marte Mercurio Urano La Tierra Neptuno Saturno Júpiter

2. **Escribe el nombre de la capa correspondiente.**

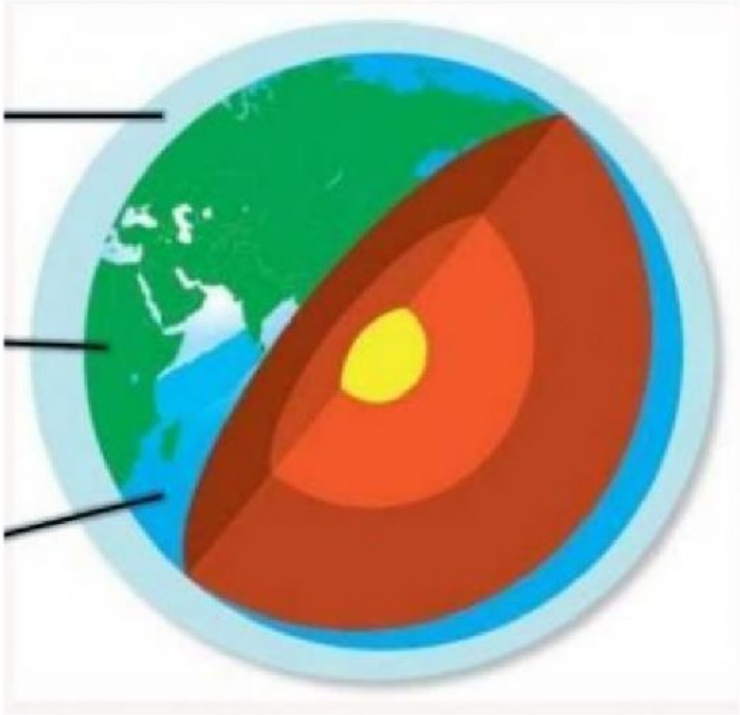

LIVEWORKSHEETS

3. **Escribe debajo de la imagen a qué movimiento de la Tierra pertenece.**



4. **Arrastra las características al cuadro correspondiente.**

Gira alrededor del sol

Gira alrededor de su propio eje

Tarda 365 días en dar una vuelta

Produce las estaciones

Tarda 24 horas en dar una vuelta

Produce el día y la noche

TRASLACIÓN	ROTACIÓN

LIVEWORKSHEETS