مملكة البحرين
وزارة التربية والتعليم
مدرسة الرازي الابتدائية للبنين

2

نشاط صفي في درس النظرية الخلوية- الفصل الأول

السؤال الأول: أكمل الجدول التالي الذي يبين مستويات تنظيم الخلايا في المخلوقات الحية؟

الرقم	مستوى التنظيم	التعريف	أمثلة
1	.....	الوحدة البنائية الأساسية في جسم المخلوق الحي وهي أصغر جزء في المخلوق الحي يقوم بعمليات الحياة	خلية عظمية- خلية عضلية خلية عصبية
2	.....	مجموعة من الخلايا المتشابهة التي تقوم معا بالوظيفة نفسها	نسيج عصبي -..... .....- نسيج ضام
3	.....	يتكون من نسيجين مختلفين أو أكثر تعمل معا للقيام بوظيفة محددة	القلب و..... و.....
4	.....	مجموعة من الأعضاء التي تعمل معا لأداء وظيفة محددة	الجهاز التنفسي و .....
5	.....	مجموعة الأجهزة الحيوية تقوم بأداء وظائف الحياة	مخلوق حي إنسان- حيوان - نبات

السؤال الثاني: حدد نوع الأشكال التي أمامك من حيث أنها (خلية أو نسيج أو عضو أو جهاز حيوي أو مخلوق حي)

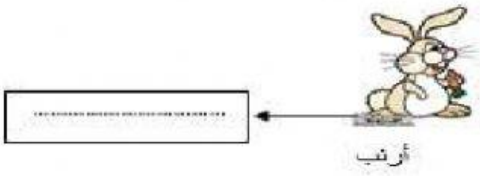
أرنب

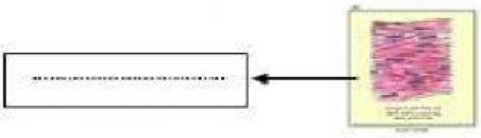
جلد

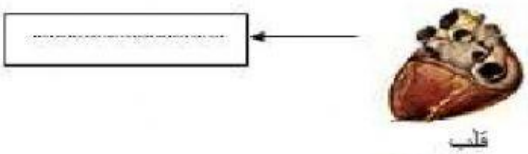
قلب

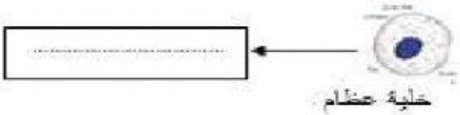
خلية عظام

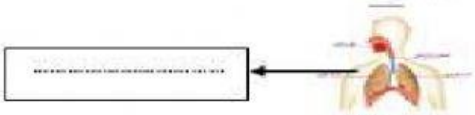
يقوم بالتنفس

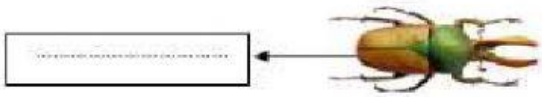
خنفساء

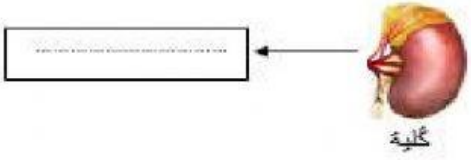
كلية

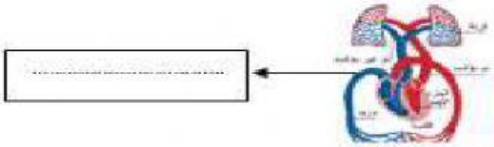
يقوم بضخ الدم

LIVEWORKSHEETS