Observa los instrumentos de laboratorio. Clasifícalos en instrumentos de medición o de observación.

1


2

3

4
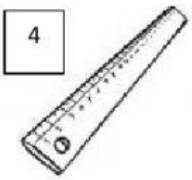

5

6

7

8

9

10

11

12

13
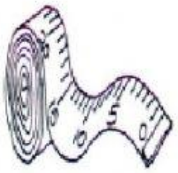

14

¿Conoces el nombre de estos instrumentos? Escribe el número del instrumento al lado de su nombre.

_____ cinta métrica	_____microscopio	_____reloj	_____regla
_____ vaso de precipitado	_____dinamómetro	_____probeta	_____ balanza
_____ telescopio	_____termómetro	_____cronómetro	_____lupa
_____matraz	_____computadora u ordenador		

LIVEWORKSHEETS