1 TESTAS

Data: .....

1 Parašyk gretimus skaičius.

2 Skaičius 709 yra tarp skaičių ☐ ir ☐.
Skaičius 880 yra tarp skaičių ☐ ir ☐.
Skaičius 200 yra tarp skaičių ☐ ir ☐.

3 Suskaičiuok.

+ 226 / 163	+ 347 / 229	+ 456 / 197	− 579 / 236	− 470 / 183	− 800 / 274	− 1000 / 337
☐	☐	☐	☐	☐	☐	☐

4 Parduotuvė iš ūkininko nupirko 120 kg obuolių, o kriaušių – 55 kg mažiau.
Kiek kilogramų kriaušių nupirko parduotuvė?



5 Sudėtį pakeisk daugyba ir apskaičiuok.

26 + 26 + 26 = ☐ · ☐ = ☐
15 + 15 + 15 + 15 + 15 = ☐ · ☐ = ☐
157 + 157 + 157 = ☐ · ☐ = ☐

6 Suskaičiuok.

× 36 / 7 × 219 / 2 832 ⌊4 55 ⌊6

LIVEWORKSHEETS

7 Voveraitė rado 47 riešutus, o kiaunė – 6 kartus daugiau. Kiek riešutų rado abu žvėreliai?



8 Palygink (įrašyk ženklą <, = arba >).

58 cm ☐ 85 m

14 dm ☐ 140 cm

37 kg ☐ 307 g

695 g ☐ 695 kg

9 Laikrodis skuba 10 min.
Parašyk tikslų laiką.

Tikslus laikas: .....

10 Išmatuok stačiakampio *ABCD* kraštinių ilgius, apskaičiuok to stačiakampio plotą ir perimetrą.



Teisingai atlikęs visas testo užduotis, galėjai surinkti 30 riešutėlių.

Tavo krepšelyje yra 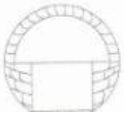 .

Įvertinimas .....

LIVEWORKSHEETS

PAPILDOMOS UŽDUOTYS

1 Duoti skaičiai 263, 362, 627, 326, 236. Apskaičiuok didžiausio ir mažiausio skaičiaus skirtumą ir sumą.

2 Apskaičiuok figūros plotą.



3 Rudenį darželyje pražydo 17 raudonų jurginų, geltonų – 5 kartus daugiau negu raudonų, o rausvų – 37 mažiau negu geltonų. Kiek jurginų pražydo darželyje?

4 Nemunas – ilgiausia Lietuvos upė. Keturi šimtai šešiasdešimt du kilometrai jos yra ne Lietuvos teritorijoje, o keturi šimtai septyniasdešimt penki kilometrai – Lietuvoje. Apskaičiuok Nemuno ilgį.

5 Riešutėliuose įrašyk tokius skaitmenis, kad lygybės būtų teisingos.

5 ◯ ◯ + ◯ 3 ◯ + 1 ◯ ◯ = 1000

◯ 4 ◯ + 2 ◯ ◯ + ◯ ◯ 9 = 1000

Gavau ☐ .

LENGVA	TEKO PAGALVOTI	SUNKU

LIVEWORKSHEETS