PHIẾU BÀI TẬP THỰC HÀNH

Bài tập 1. Hãy ghép nối các vật thể sao cho đúng với bản vẽ hình chiếu tương ứng

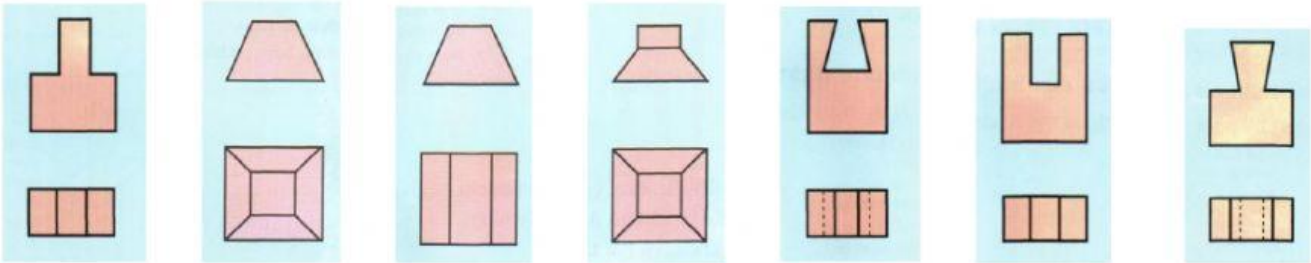

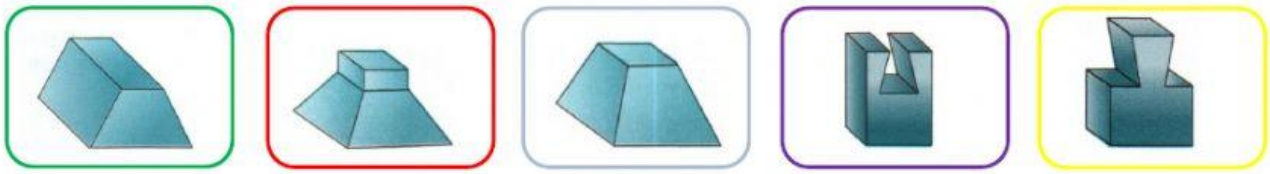

Bài tập 2. Điền vào chỗ trống tên khối đa diện và khối tròn xoay tạo nên vật thể dưới đây sử dụng gợi ý

Vật thể		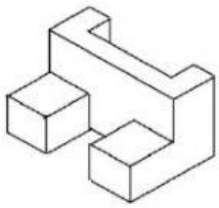	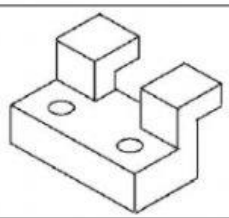
Khối đa diện	.....	.....	.....
Khối tròn xoay	.....	.....	.....

Hình hộp chữ nhật | Hình chóp đều | Hình cầu | Hình trụ

LIVEWORKSHEETS