REFUERZO DE LA UNIDAD 9 DE MATEMÁTICAS 2º E.P

1) Escribe metro o centímetro donde corresponda:

El _____ se usa para medir longitudes más pequeñas que el _____ .

2) ¿Cuántos centímetros mide la línea?

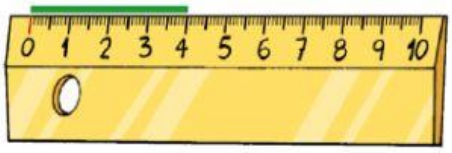

La línea mide ☐ cm.

3) Relaciona con la unidad de medida más adecuada en cada caso.

una pared	metro	una pintura
un coche	centímetro	un billete
un cuaderno		una manguera

4) ¿Qué usarías para medir en cada caso, el metro o el centímetro? Relaciona.

LIVEWORKSHEETS

Ancho de un cuaderno	metro
Largo de una pared	
Largo de una pintura	centímetro
Largo de un coche	

5) Calcula cuántos kilómetros hay del colegio a la granja.

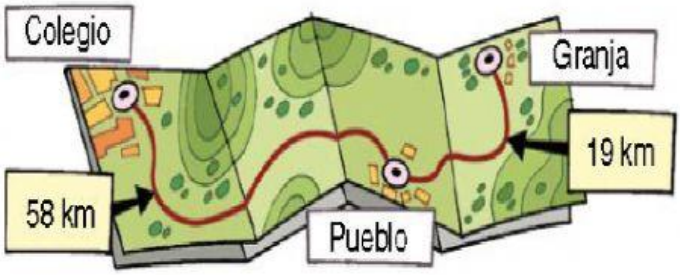

Hay

6) Escribe 3 m o 3 km donde corresponda:

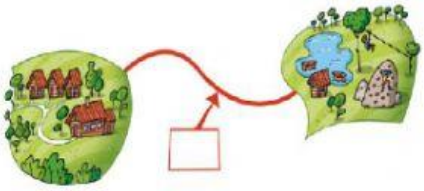

7) ¿Cuántos kilómetros recorro si hago un viaje de ida y vuelta desde el pueblo a la granja?

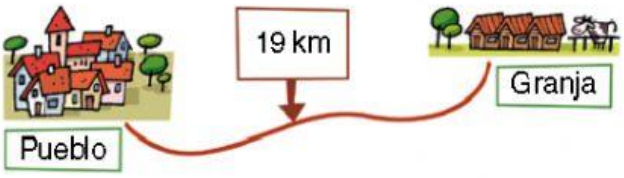

Recorro

LIVEWORKSHEETS

8) ¿Qué utilizarías para medir metros y qué usarías para medir centímetros? Escribe metros o centímetros donde corresponda.

9) Rodea qué longitudes podrías medir con una regla.

LIVEWORKSHEETS