SDN SEMANAN 07 PETANG PENILAIAN TENGAH SEMESTER TAHUN PELAJARAN 2020/2021	Nama :
	No. Absen :
Mata Pelajaran : Tema 2 (Subtema 1 &2) Kelas : I (Satu) Waktu : 90 menit Tanggal :	Nilai :

I. Berikan tanda silang (x) pada jawaban yang benar !

1. Ketika makan hendaknya menggunakan tangan…

   a. Kiri
   c. kanan dan kiri
   b. Kanan
   d. a dan c

2. Agar mendapatkan tubuh yang bersih kita harus…

   a. Mandi ketika panas
   c. Mandi seminggu sekali
   b. Mandi dengan senang
   d. Mandi dengan teratur

3. Lengkapi kalimat- di bawah ini dengan kata yang tepat berdasarkan gambar…

   Beni menendang _____ ke dalam gawang.

   a. Bola
   c. Kaki
   b. Udin
   d. Orang

4. Apa yang di lakukan setelah bermain di luar rumah…

   a. Mencuci tangan dan kaki
   c. Mencuci tangan dan wajah
   b. Mencuci tangan dan kepala
   d. Mencuci tangan dan baju

5. Sesuatu yang tidak boleh di lakukan pada saat bermain adalah..

   a. Curang
   c. Bersama
   b. baik
   d. kompak

6. Pikiran yang sehat terletak dalam badan yang ...

   a. Sehat
   c. Indah
   b. Cantik
   d. Baik

7. Pola makan sehat mencegah penyakit...

   a. Hati
   c. Berat
   b. Jantung
   d. Ringan

LIVEWORKSHEETS

8. Kuku yang panjang tidak baik untuk...

a. Kesehatan
c. Kecerdasan
b. kehidupan
d. Keindahan

9. Hitung jumlah bola yang ada di bawah ini!

a. 8
c. 4
b. 6
d. 10

10. Dayu membawa 5 kok untuk bermain bulu tangkis. Lani membawa 3 kok. Berapakah jumlah kok yang dibawa Dayu dan Lani

a. 8
c. 4
b. 6
d. 10

11. Jumlah anak yang terdapat pada gambar si bawah ini adalah…

a. 5
c. 9
b. 7
d. 6

12. Jumlah kok yang terdapat pada gambar adalah…

a. 8
c. 9
b. 10
d. 7

13. Judul dari lagu di bawah ini adalah…

Ruri adalah abangku
rajin dan senang belajar
Dengan menyandang tas di bahu
riang menuju sekolah

a. Ruri Abangku
c. Ruri
b. Abangku Ruri
d. Abangku

14. Kata yang tepat untuk syair lagu "Kepala Pundak Lutut....." adalah

a. Tangan
c. Lengan
b. kaki
d. Tubuh

LIVEWORKSHEETS

15. Ibu membuat 10 potong kue untuk adik dan kakak. Adik makan 3 potong. Berapakah jumlah kue untuk kakak…

a. 5 c. 6

b. 4 d. 7

16. Hanya pucuk bambu dengan hasil hitungan 3 yang dimakan oleh panda .

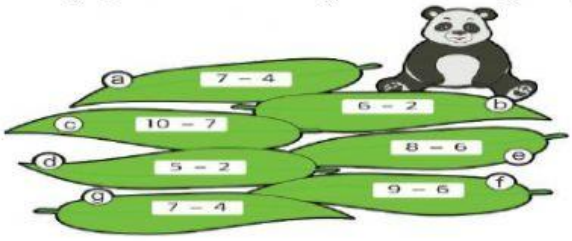

Pucuk bambu yang dimakan panda ini adalah __, __, __, __, dan __.

a. a, c, d, f, g

c. a, c, d, b, g

b. a, c, b, f, g d. a, c, d, f, b

17. Di ruang musik ada 4 buah pianika, lalu pak Udin membeli lagi sebanyak 10 buah. Berapakah total pianika yang ada di sekolah ?

a. 12 c. 16

b. 14 d. 13

18. Perhatikan gambar apel di bawah ini !



Sisa apel yang belum dimakan adalah…

a. 2 c. 1

b. 4 d. 3

19. Lengkapi kalimat di bawah ini sesuai dengan gambar!

Edo bermain _____ bersama teman-temannya.

a. berlari

c. berenang

b. kasti d. kasti

LIVEWORKSHEETS

20. Lengkapi kalimat di bawah ini sesuai dengan gambar!

Lani _____ lebih cepat daripada kawan-kawannya.

a. berlari
b. kasti
c. berenang
d. lompat

II. Isilah titik titik dengan jawaban yang tepat !

21. Sebutkan sikap yang baik tehadap adik!

22. Disajikan soal, siswa mampu menyebutkan hal-hal yang dilakukan ketika makan Bersama adik.

23. Anggota tubuh apa saja yang terdapat di lagu " Kepala pundak lutut kaki ?

24. Lagu di bawah ini bercerita tentang apa?

Sayang Semuanya
Ciptaan Bu Kasur

Satu satu aku sayang ibu
Dua dua juga sayang ayah
Tiga tiga sayang adik kakak
Satu dua tiga sayang semuanya

25. Ketika bermain kita tidak boleh bersikap…

26. Ceritakan apa yang kalian ketahui tentang gambarbenda di bawah ini!

27. Perhatikan jumlah benda pada gambar! Tulis bilangan yang tepat!

LIVEWORKSHEETS

28. Perhatikan jumlah benda pada gambar! Tulis bilangan yang tepat!





Lengkapi dengan kata-kata dari dalam kotak!

29. Dayu senang _____ bersama sahabatnya.

30. Sahabat membuat hari Dayu _____.

sahabat	senang	beruntung
menyenangkan	bermain	

LIVEWORKSHEETS