ESCUELA DE EDUCACIÓN BÁSICA PARTICULAR

DATOS INFORMATIVOS:

ASIGNATURA: MATEMATICA	**JORNADA: MATUTINA**
AÑO LECTIVO: SEGUNDO	**PARALELO: A - B**
ESTUDIANTE:	

INDICACIONES:

ES IMPORTANTE QUE LAS RESPUESTAS SEAN DEL ESTUDIANTE

1.- Unir los colores que corresponden a cada figura.



2.- Selecciona el color que resulta de la mezcla de los siguientes colores.

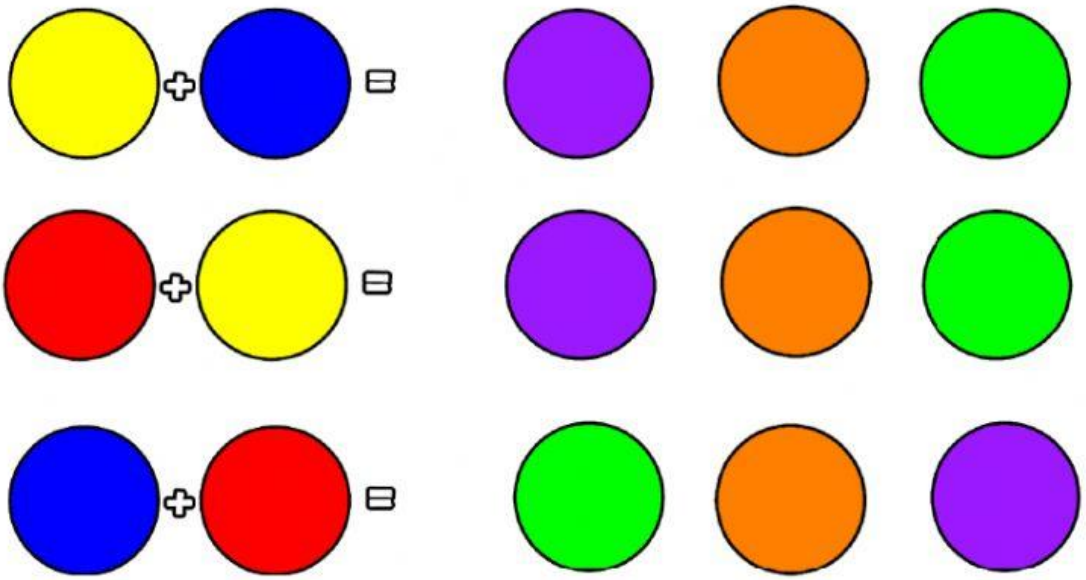

LIVEWORKSHEETS

ESCUELA DE EDUCACIÓN BÁSICA PARTICULAR

3.- Unir la forma con la figura.



4.- Seleccione la respuesta correcta a cada pregunta.

A) ¿En qué árbol hay más búhos?

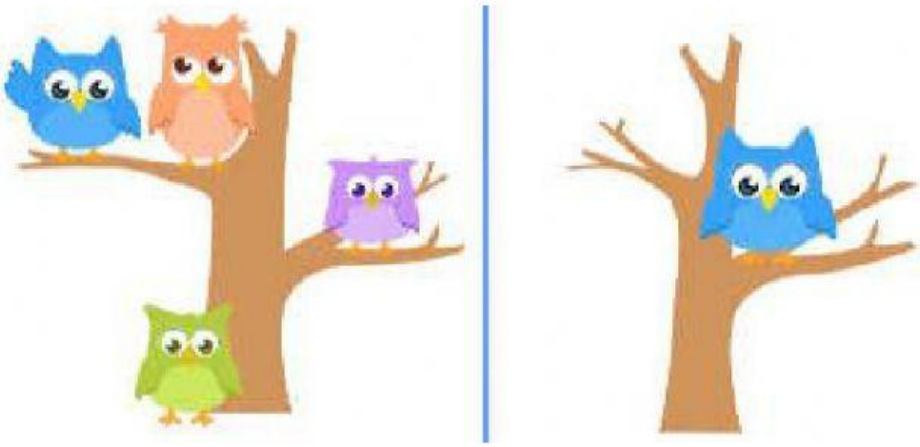

LIVEWORKSHEETS

ESCUELA DE EDUCACIÓN BÁSICA PARTICULAR

B) ¿Selecciona el gato que esta abajo de árbol?

C) ¿Quién tiene el cabello corto?



5.- Observar la siguiente serie gráfica y completar ubicando la figura que corresponda.

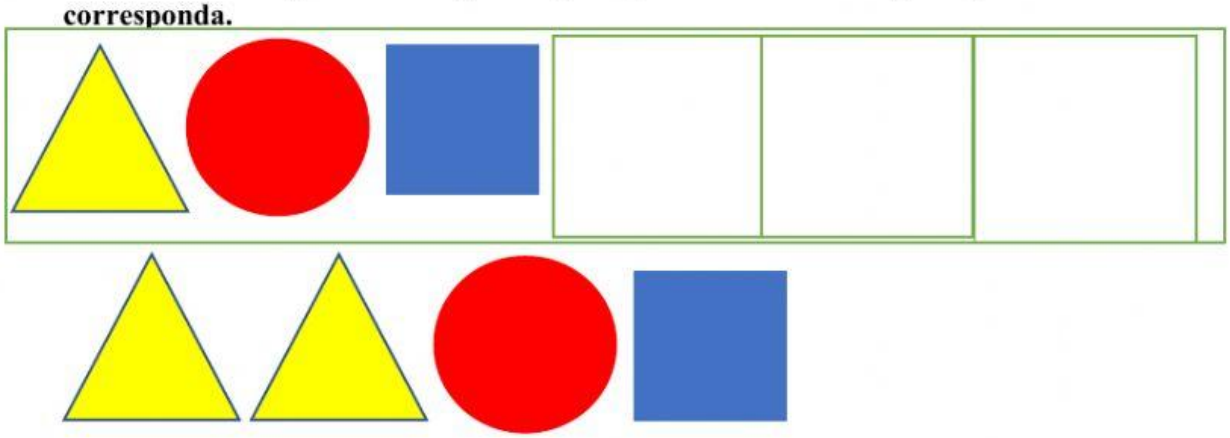

LIVEWORKSHEETS

ESCUELA DE EDUCACIÓN BÁSICA PARTICULAR

6.- Completa los números



7.- Resuelve las sumas.

$$\begin{array}{r} 1 \\ +\ 6 \\ \hline \end{array}$$

8.- Resuelve las sumas.

$$\begin{array}{r} 9 \\ -\ 5 \\ \hline \end{array} \qquad \begin{array}{r} 5 \\ -\ 2 \\ \hline \end{array}$$

9.- Selecciona el número que representa al grupo de objetos en cada grupo

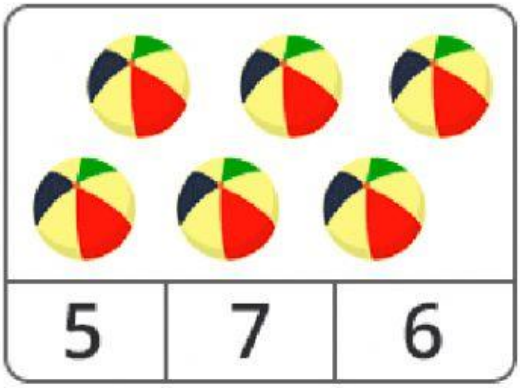

5	7	6

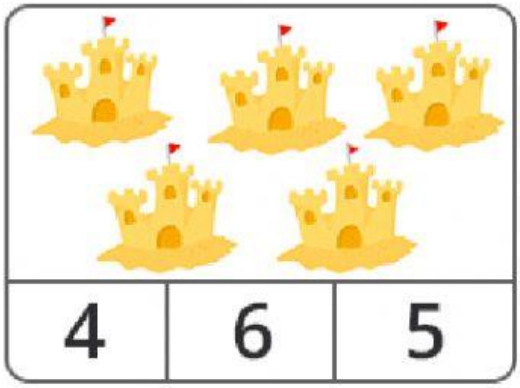

4	6	5

LIVEWORKSHEETS

ESCUELA DE EDUCACIÓN BÁSICA PARTICULAR

10.- Arrastra los elementos para formar un conjunto de útiles escolares



A

LIVEWORKSHEETS