Luyện tập TOÁN

Bảng nhân – Bảng chia

1. Tính:

a/ $5 \times 3 + 132$ = ...

= .....

b/ $32 : 4 + 106$ = ...

= .....

c/ $20 \times 3 : 2$ = ...

= .....

2. Hình nào đã khoanh đúng vào $\frac{1}{4}$ số vịt:

☐ ☐ ☐ ☐



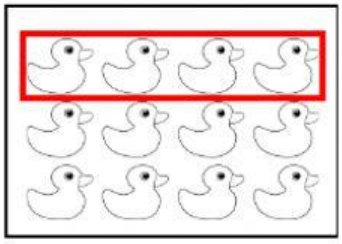



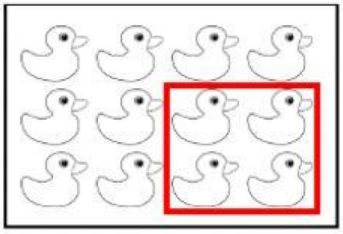

3. Mỗi bàn có 2 học sinh. Hỏi 4 bàn như vậy có bao nhiêu học sinh?

Bài giải

.....

.....

.....

LIVEWORKSHEETS