LECTURAS DE VERNIER EN MILIMETROS

Nombre: _____

1.- Determine la medida que muestra el Vernier en milímetros

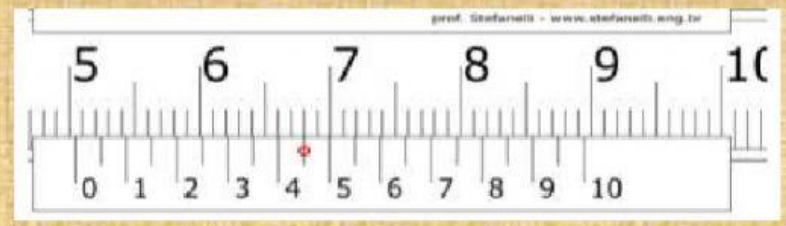

a) 64.50 mm

b) 50.45 mm

c) 68.00 mm

d) 45.00 mm

2.- Determine la medida que muestra el Vernier en milímetros

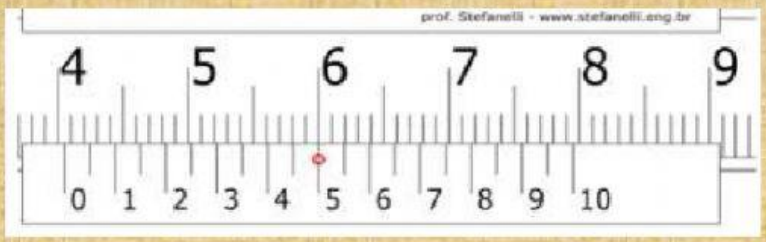

a) 65.05 mm

b) 59.95 mm.

c) 40.50 mm.

d) 41.50 mm

3.- Determine la medida que muestra el Vernier en milímetros

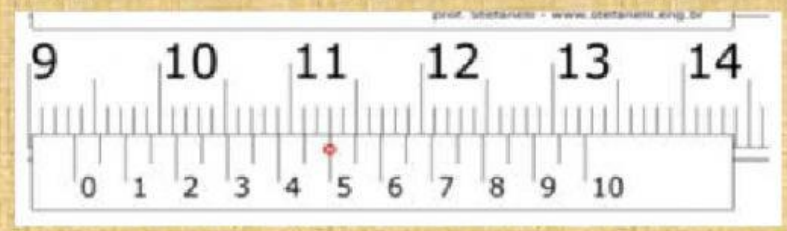

a) 93.50 mm

b) 90.55 mm

c) 11.50 mm

d) 50.05 mm

LIVEWORKSHEETS

4.- Determine la medida que muestra el Vernier en milímetros

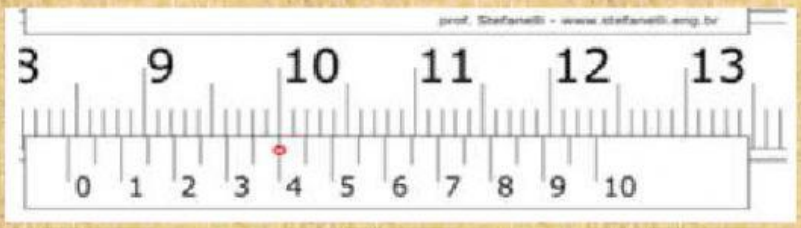

a) 10.40 mm

b) 84.35 mm

c) 99.50 mm

d) 84.40 mm

5.- Determine la medida que muestra el Vernier en milímetros

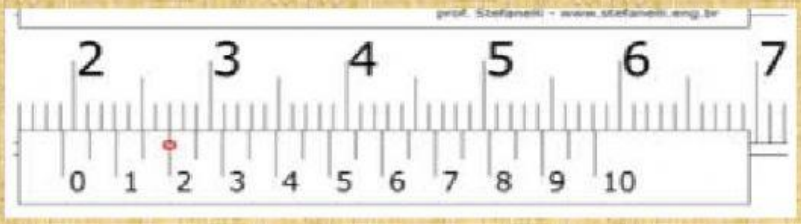

a) 19.20 mm

b) 10.20 mm

c) 20.00 mm

d) 27.05 mm

6.- Determine la medida que muestra el Vernier en milímetros

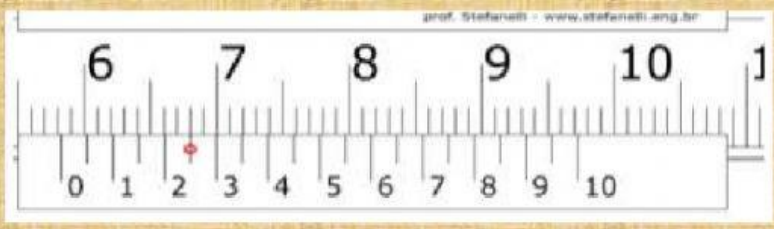

a) 68.00 mm

b) 20.05 mm.

c) 58.25 mm.

d) 68.25 mm

LIVEWORKSHEETS