INSTITUCIÓN EDUCATIVA DE APLICACIÓN
" UCV COLLEGE "- PIURA

EXAMEN TRIMESTRAL DE TRIGONOMETRIA

Estudiante:

Grado: 1ero. de secundaria **Sección:** **Fecha:** **de Septiembre del 2021**

I. Si: A(2;5); B(5;9); C(-7;4) Calcular las distancias AB y BC

A)5 y 13 B)13 y 5 C)12 y 13 D)5 y 12 E)12 y 5

II. Si: P (-4; 2); Q (0; 5); R (6; 13) Calcular: d(PQ) + d(QR)

A)10 B)15 C)12 D)20 E)13

III. Calcular "x"

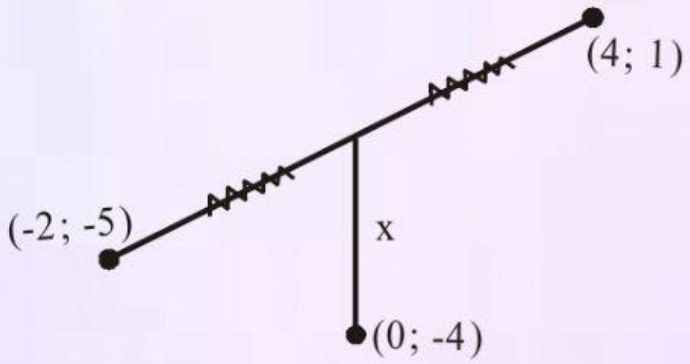

A) $\sqrt{5}$ B)5 C) $\sqrt{6}$ D) $\sqrt{3}$ E)2

LIVEWORKSHEETS

IV. Calcula "x"

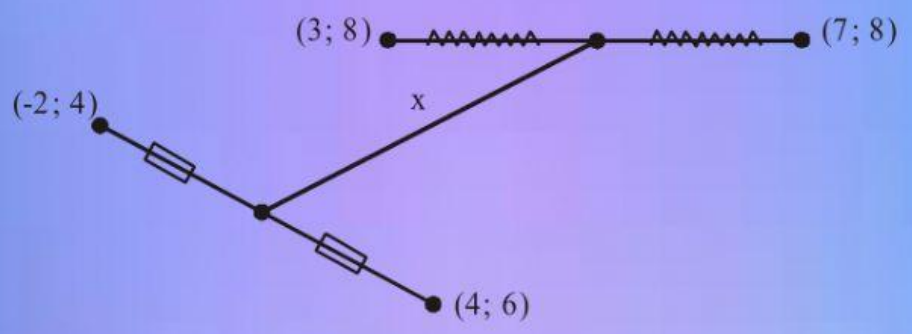

a)1 b)2 c)3 d)4 e)5

V. Calcular "y"

A)10 B)15 C)12 D)20 E)13

VI. Calcular el valor de "x"

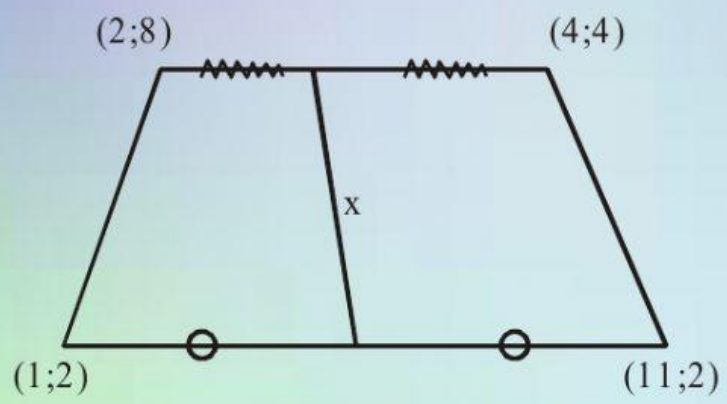

A)4 B)5 C)6 D)7 E)3

LIVEWORKSHEETS