HỌ TÊN

BÀI TẬP HAI GÓC ĐỐI ĐỈNH

Bài 1: Em hãy điền vào chỗ trống để có khẳng định đúng:

a. Hai góc đối đỉnh là hai góc mà mỗi cạnh góc này là ……của một cạnh góc kia.

b. Hai góc đối đỉnh thì ……

Bài 2: Cho hình vẽ:

a) Góc xAz và góc ……. là hai góc đối đỉnh

vì cạnh Ax là tia đối của cạnh Ay và cạnh Az là

…….. của cạnh At

b) Góc xAt và góc z Ay là …….

vì cạnh Ax là tia đối của cạnh…….. và

cạnh……...

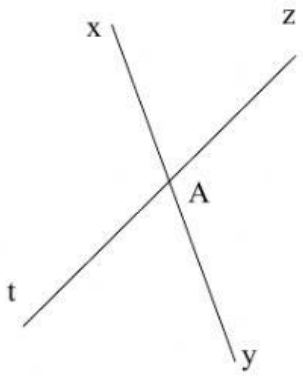

Bài: 3: Điền vào chỗ trống trong các phát biểu sau:

a) Hai góc có mỗi cạnh của góc này là tia đối của một cạnh góc kia được gọi là hai góc

……

b) Hai đường thẳng cắt nhau tạo thành hai cặp góc…….

Bài 4: Hai đường thẳng xz và yt cắt nhau như hình vẽ. Viết tên 2 cặp góc đối đỉnh.

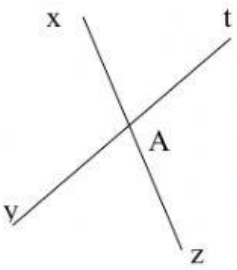

LIVEWORKSHEETS

Bài 5: Hình nào dưới đây có cặp góc đối đỉnh. Hãy chọn vào ô trống dưới hình đó.

.

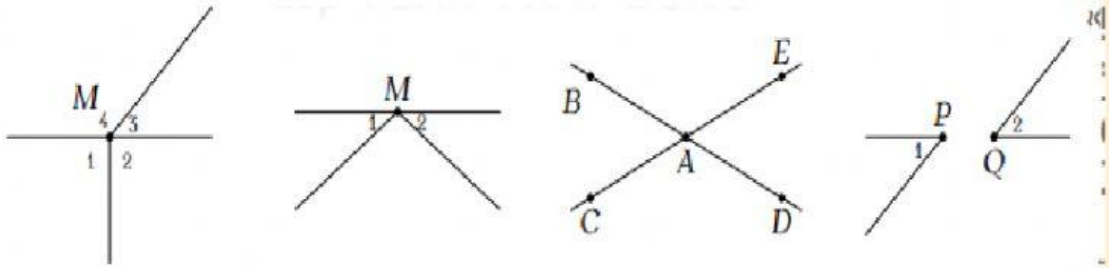

Bài 6: Cho hai đường thẳng xy và zt cắt nhau tại A và góc xAt bằng 60^0. Tính số đo các góc còn lại

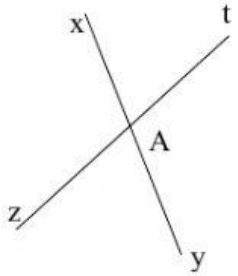

Góc xAz = …….^{0}

Góc yAz = …….^{0}

Góc yAt = …….^{0}

Bài 7: Hai đường thẳng AB và CD cắt nhau tại O tạo thành bốn góc khác góc bẹt. Một trong bốn góc đó bằng 50^0. Ba góc còn lại bằng:

A. 130^0, 50^0, 50^0.

B. 50^0, 120^0, 120^0.

B. 130^0, 130^0, 130^0.

D. 50^0, 130^0, 130^0.

Bài 8: Ba đường thẳng AB, CD, EF cắt nhau tại O, trong đó góc AOC = 94^0.

Góc O_1 = góc O_5. Điền các số đo góc vào chỗ trống cho đúng:

Góc O_1 = ……; Góc O_2 = ……;

Góc O_3 = ……; Góc O_4 = ……;

Góc O_5 = ……;

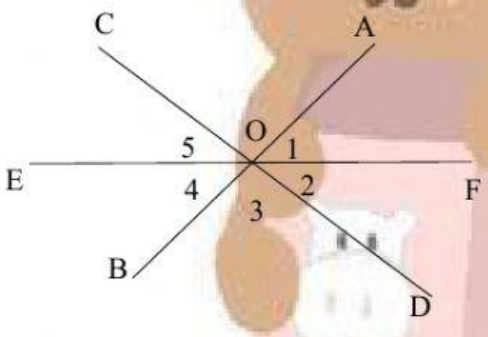

LIVEWORKSHEETS

THÁI THỊ THU HƯƠNG

LIVEWORKSHEETS