PHIẾU ÔN TẬP TOÁN – PHIẾU 3

1. a) Quan sát hình vẽ rồi điền số đo thích hợp vào chỗ trống:

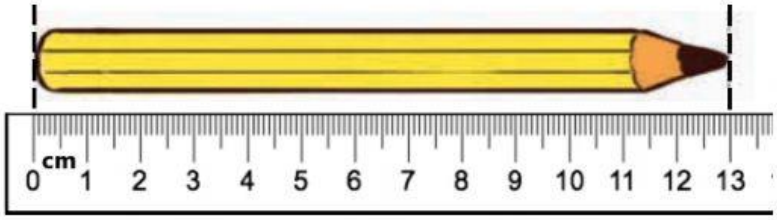

Bút chì màu vàng dài ☐ cm.

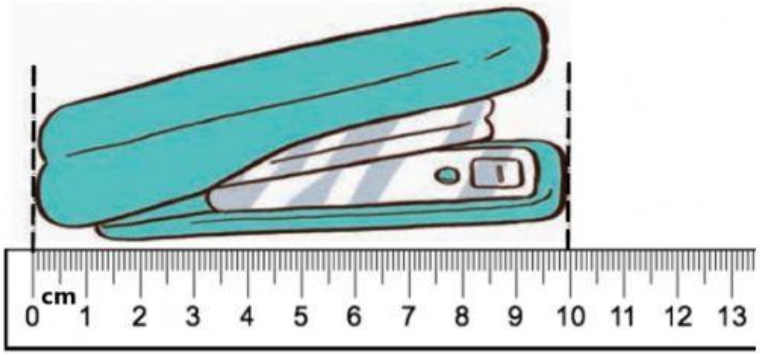

Cái dập ghim dài ☐ cm.



Cây kéo dài ☐ cm.

b. Chọn chữ thích hợp điền vào chỗ trống:

Bút chì màu vàng cái dập ghim.

Cây kéo cái dập ghim.

2. Viết phép tính và câu trả lời:

An nhặt được 5 vỏ ốc
Hoà nhặt được 4 vỏ ốc
Hỏi cả hai bạn nhặt được bao nhiêu vỏ ốc?

☐

Trả lời: Cả hai bạn nhặt được ☐ vỏ ốc

LIVEWORKSHEETS

3. a) Em hãy đọc các tờ lịch sau và điền vào chỗ trống:

b) Dựa vào các tờ lịch trên, điền vào chỗ trống trong bảng thông báo sau:

Thứ sáu, ngày 14 tháng 5 năm 2021

Thông báo

Thứ . . . . . , ngày 19 - 5

Đi tham quan Bến Nhà Rồng

c) Quan sát tranh rồi chọn câu trả lời thích hợp:



Lúc đi: Có mặt tại , trước

Lúc 9 giờ em đang ở

Phụ huynh đón em tại , lúc

LIVEWORKSHEETS