Evaluación De Razonamiento Matemático

Docente: Beatriz Cano Nolasco **2do grado** **Fecha: 09/09/2021**

1.SUCESIONES NUMÉRICAS

Descubre la regla de formación y completa las sucesiones numéricas:



a) La regla de formación es: resto ___ cada vez.

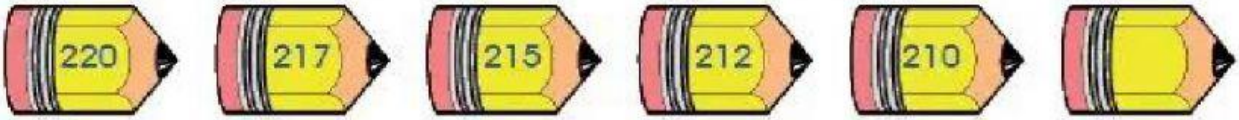

b) La regla de formación es: resto ___ y resto ___.

c) La regla de formación es: sumo ___



d) La regla de formación es: sumo ___ y sumo ___.

LIVEWORKSHEETS

2.- Encuentra el número que falta.

$$\begin{array}{r} 456\ + \\ \square\,4\,\square \\ \hline 999 \end{array} \qquad \begin{array}{r} 6\square\ + \\ \square\,4 \\ \hline 102 \end{array} \qquad \begin{array}{r} 3\square6\ + \\ 23\square \\ \hline \square\,77 \end{array}$$

$$\begin{array}{r} 756\ - \\ \boxed{2}\,\square\,3 \\ \hline \square\,9\,\square \end{array} \qquad \begin{array}{r} 316\ - \\ 10\square \\ \hline \square\,\square\,7 \end{array} \qquad \begin{array}{r} \square\,42\ - \\ 21\square \\ \hline 4\,\square\,1 \end{array}$$

3.- Marca tu respuesta.

1.- En la figura, ¿cuántos cuadrados hay?

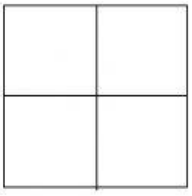

a) 2 b) 4 c) 5 d) 26

2. En la figura, ¿cuántos rectángulos hay?

a) 5 b) 6 c) 7 d) 3

3. En la figura, ¿cuántos rectángulos hay?



a) 1 b) 3 c) 5 d) 6

4. En la figura, ¿cuántos triángulos hay?

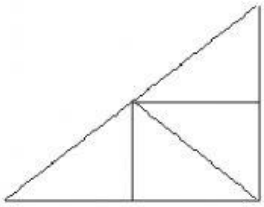

a) 4 b) 5 c) 6 d) 7

LIVEWORKSHEETS

4.-Resuelve las siguientes pirámides numéricas

Pirámide 1

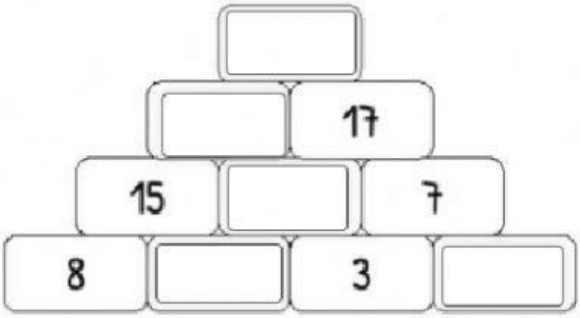

Pirámide 2

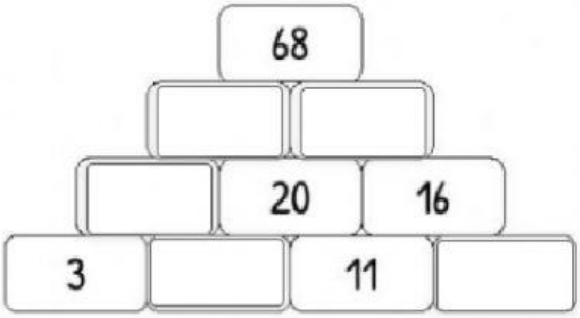

Pirámide 3

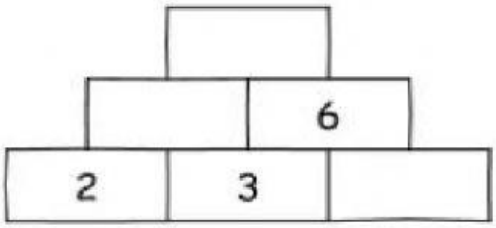

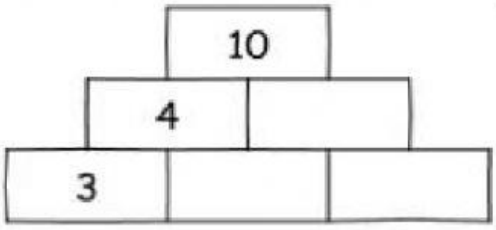

Pirámide 4

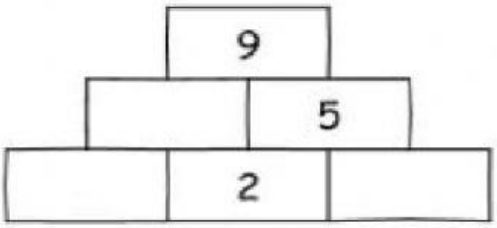

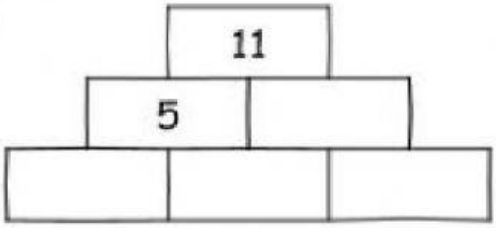

LIVEWORKSHEETS