FIGURAS PLANAS

POLÍGONOS

Recuerda:

Un polígono es una línea poligonal cerrada y su interior.

Los polígonos tienen lados y vértices.

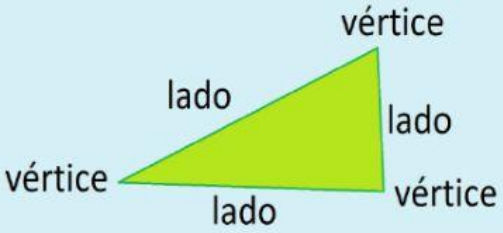

Este polígono tiene 3 lados y 3 vértices.

1. Selecciona pinchando los que sean polígonos.

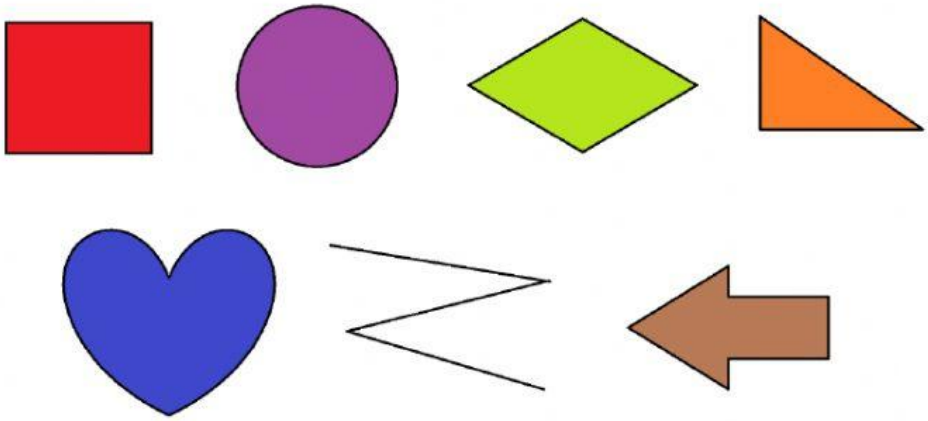

2. Cuenta y completa.



☐ lados	☐ lados	☐ lados	☐ lados
☐ vértices	☐ vértices	☐ vértices	☐ vértices

LIVEWORKSHEETS

CIRCUNFERENCIA Y CÍRCULO

Recuerda:

CIRCUNFERENCIA CÍRCULO

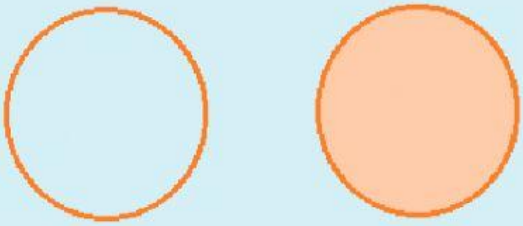

Una circunferencia es un tipo de línea curva cerrada.

Un círculo es una circunferencia y su interior.

3. Elige *circunferencia* o *círculo* en cada caso.

4. Selecciona los objetos con los que puedes dibujar una circunferencia.

LIVEWORKSHEETS