Prueba de diagnóstico

Nombre: | Grado: | Fecha:

1. **Escribe** el número representado.



a. ☐ b. ☐ c. ☐

2. **Descompón** los siguientes números.

a.	26	☐	D +	☐	U =	☐	+	☐
b.	65	☐	D +	☐	U =	☐	+	☐
c.	83	☐	D +	☐	U =	☐	+	☐

3. **Escribe** cómo se leen estos números.

a.	38	
b.	57	
c.	76	

4. **Completa** la secuencia con el número anterior o posterior.

a.		70		b.	49			c.			60

LIVEWORKSHEETS

5. **Realiza** las siguientes sumas.

a.

		4	5
+		2	3

b.

		3	6
+		5	2

c.

		7	4
+		1	9

6. **Efectúa** las siguientes sustracciones.

a.

		6	7
–		3	2

b.

		8	9
–		4	5

c.

		9	4
–		8	1

7. **Escribe** en el recuadro los nombres de los tres objetos más livianos.



8. Mide el largo de los objetos dibujados con un clip.

a.

b.

LIVEWORKSHEETS

9. Escribe el nombre de las figuras geométricas.



_____ _____ _____ _____ _____

LIVEWORKSHEETS