NAMA : _____

Jawab semua soalan.

1) Rajah terdiri daripada beberapa segi empat sama yang sama besar.



Hitung nisbah bilangan bahagian berwarna biru kepada bahagian berwarna putih.

_____

2) Lihat satah di bawah. Cari jarak mengufuk dan jarak mencancang di antara titik.

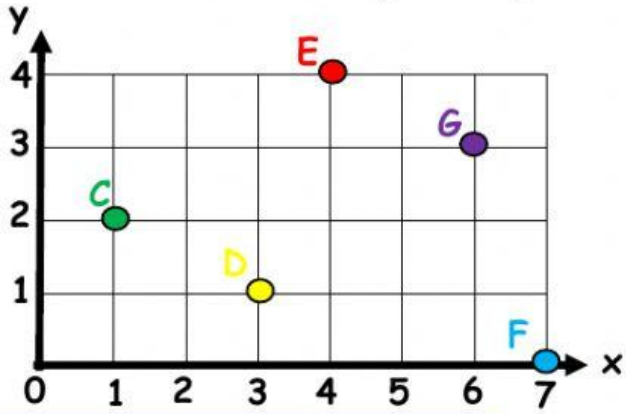

a) C dengan F :
Mengufuk : _____ unit
Mencancang : _____ unit

b) D dengan E :
Mengufuk : _____ unit
Mencancang : _____ unit

c) D dengan F :
Mengufuk : _____ unit
Mencancang : _____ unit

d) D dengan G :
Mengufuk : _____ unit
Mencancang : _____ unit

e) G dengan F :
Mengufuk : _____ unit
Mencancang : _____ unit

LIVEWORKSHEETS

3) Padankan peristiwa berikut:

Suhu di Malaysia mencapai 40°C	Tidak mungkin berlaku
Bayi berjalan sebaik sahaja dilahirkan	Mungkin berlaku
Kutub Utara menjadi Kutub Selatan	

4) Tulis nisbah bilangan:

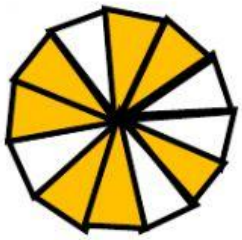

a) Bahagian berlorek kepada bahagian tidak berlorek : _____

b) Bahagian tidak berlorek kepada bahagian berlorek : _____

c) Bahagian berlorek kepada jumlah bahagian : _____

5) Tuliskan kebolehjadian bagi peristiwa di bawah:

Peristiwa	Kebolehjadian
Kubus mempunyai 6 permukaan yang sama besar	
4 bola merah, 1 bola biru dan 2 bola hijau dalam sebuah kotak. Kebarangkalian saya mengambil bola merah.	
Saya akan mendapat angka 7 dalam balingan sebiji buah dadu.	
Saya mendapat kepala daripada lambungan duit syiling.	
Malaysia mengalami gegaran gempa bumi pada setiap tahun.	

LIVEWORKSHEETS