RELACIONE LOS ELEMENTOS DEL CONJUNTO DE SALIDA CON EL CONJUNTO DE LLEGADA Y REPRESENTE LOS PARES ORDENADOS.

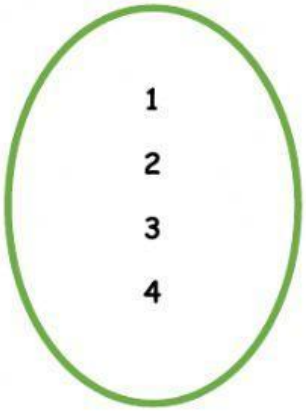

Conjunto de salida

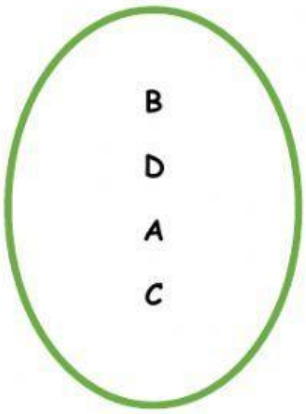

Conjunto de llegada

( ), ( ), ( ), ( ), ( )

Conjunto de salida

Conjunto de llegada

( ), ( )

LIVEWORKSHEETS

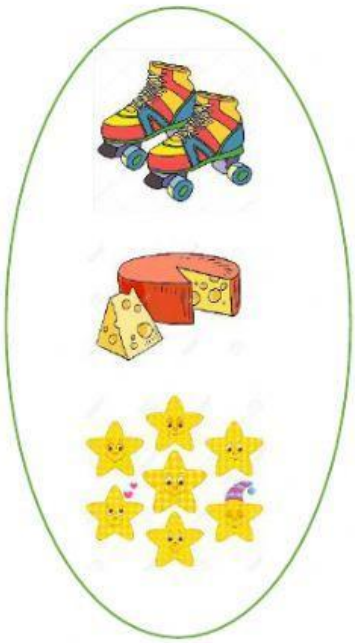

Conjunto de salida

Conjunto de llegada

( ), ( ), ( )

LIVEWORKSHEETS