Ley del seno

Profe Charlie	**Indicación**: resuelve los siguientes triángulos, calculando el lado o el ángulo y responde dando un clic en la respuesta que consideres correcta. Puedes apoyarte del siguiente video.	

1) ¿Cuál es el planteamiento correcto para calcular el valor del lado AC?

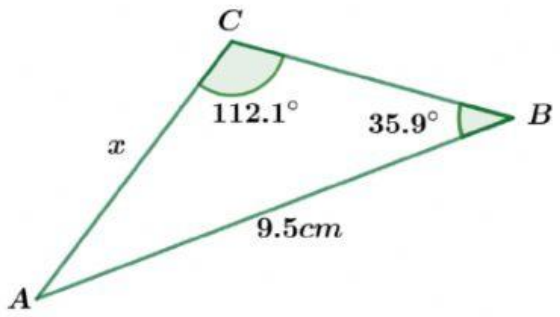

A)	$\frac{x}{Sen(35.9)} = \frac{Sen(112.1)}{9.5}$
B)	$\frac{x}{Sen(112.1)} = \frac{9.5}{Sen(35.9)}$
C)	$\frac{x}{Sen(35.9)} = \frac{9.5}{Sen(112.1)}$
D)	$\frac{x}{9.5} = \frac{Sen(35.9)}{Sen(112.1)}$

2) ¿Cuál es el valor del ángulo β?

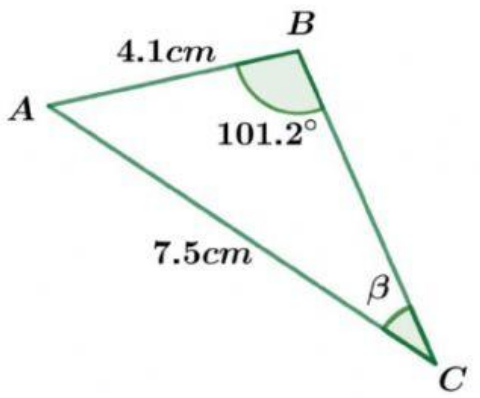

A) 32.4°
B) 46.4°
C) 56.2°
D) 0.009°

LIVEWORKSHEETS

3) ¿Cuál es la longitud del lado AB?

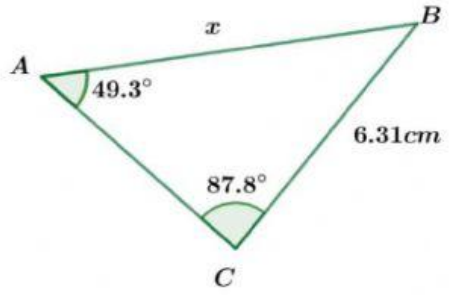

A) 4.7cm

B) 8.3cm

C) 0.20cm

D) 0.12cm

4) ¿Cuál es el valor del ángulo β?

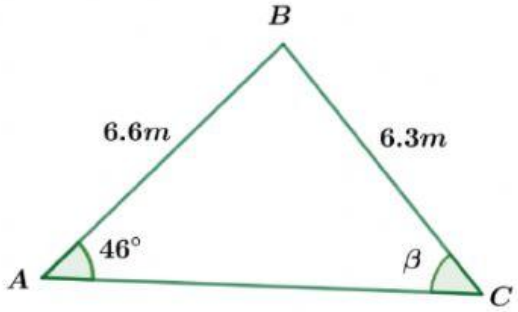

A) 48.9°

B) 90.7°

C) 43.3°

D) 85.1°

5) ¿Cuál es la longitud del lado BC?

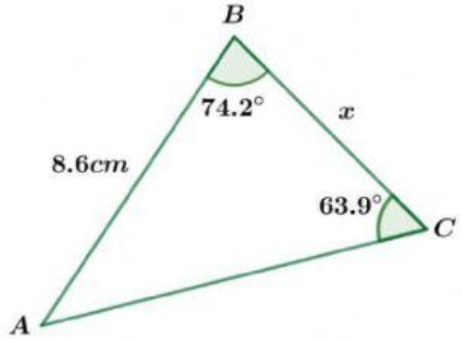

A) 9.2cm

B) 8.0cm

C) 6.3cm

D) 11.5cm

LIVEWORKSHEETS