CAPTAIN AMERICA
THE WINTER SOLDIER

a) 2

b) 3

c) 4

d) 5

01. Sabendo que a // b // c, qual o valor de x?

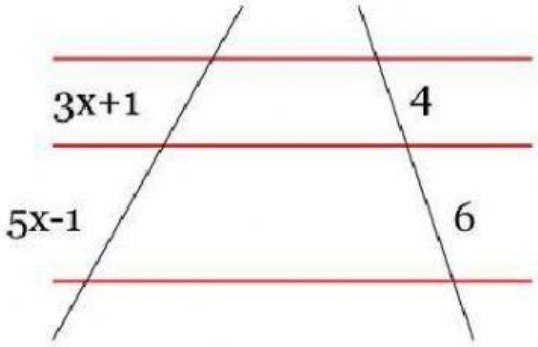

02. Sendo DE // AC , Calcule o valor de AB.

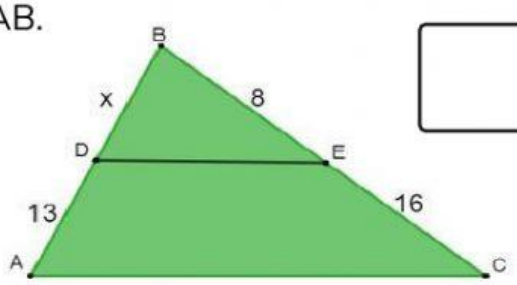

03. Observe a figura e calcule a distância do garoto ao prédio. (as medidas estão dadas em metros)

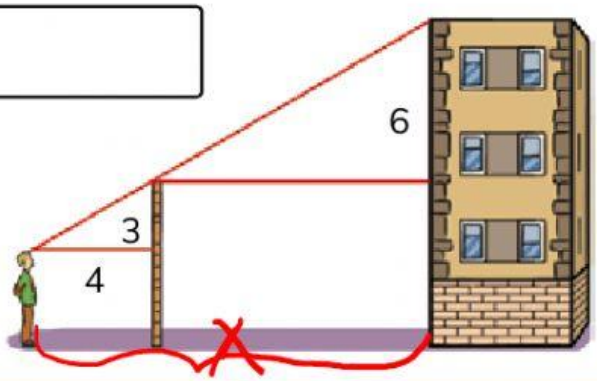

04. Qual a altura da árvore, use os conhecimentos de semelhança para calcular:



LIVEWORKSHEETS

05. Um poste de luz que mede 5 metros de altura, projeta a uma determinada hora do dia, uma sombra de 4 metros, no mesmo instante em que o edifício projeta uma sombra de 8 metros, qual a altura do edifício?

Use semelhança para sair dessa!

06. Qual a distância entre o restaurante e a caseta (casa pequena).

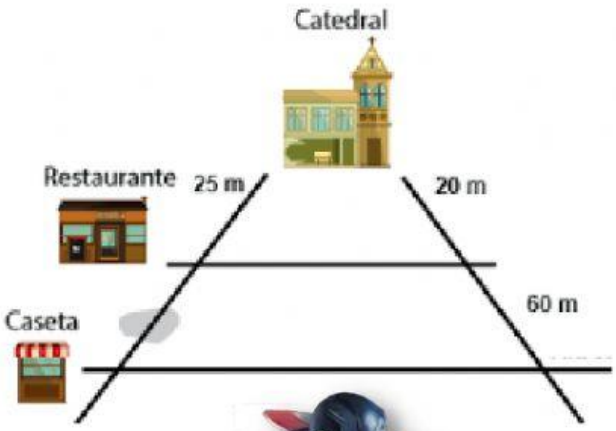

Esta planta mostra dois terrenos. As divisas laterais são perpendiculares à Rua The Last of Us. Quais são as medidas das frentes dos terrenos que dão para a Avenida Bloodborne, sabendo-se que a frente total para essa avenida é de 90 metros?

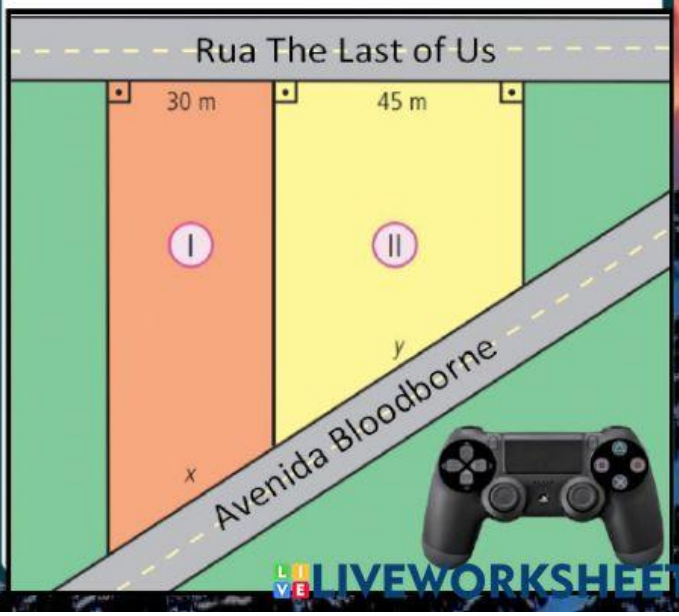

LIVEWORKSHEETS

Sendo r//s//t determine o valor de x em cada item:

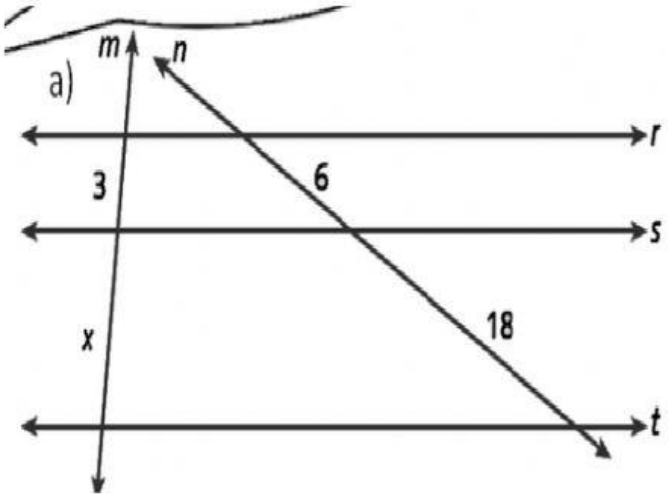

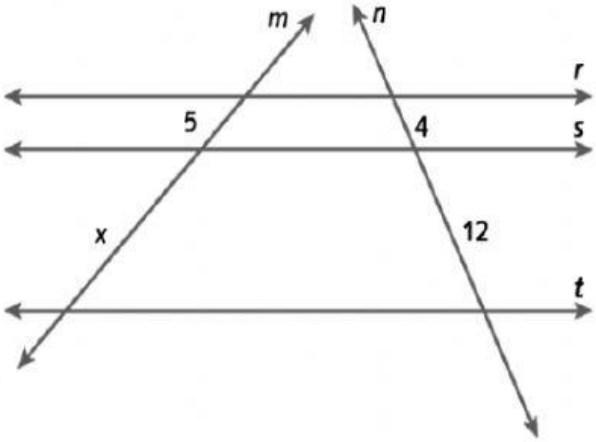

LIVEWORKSHEETS