5.En una salida de campo del colegio, Pilar y Estefanía registraron en la tabla el numero de girasoles que observaron.

Estudiante	Número de girasoles observados
Pilar	1
Estefanía	10

¿Cuál de las siguientes gráficas muestra el número de girasoles que observó cada estudiante en la salida de campo?

A.

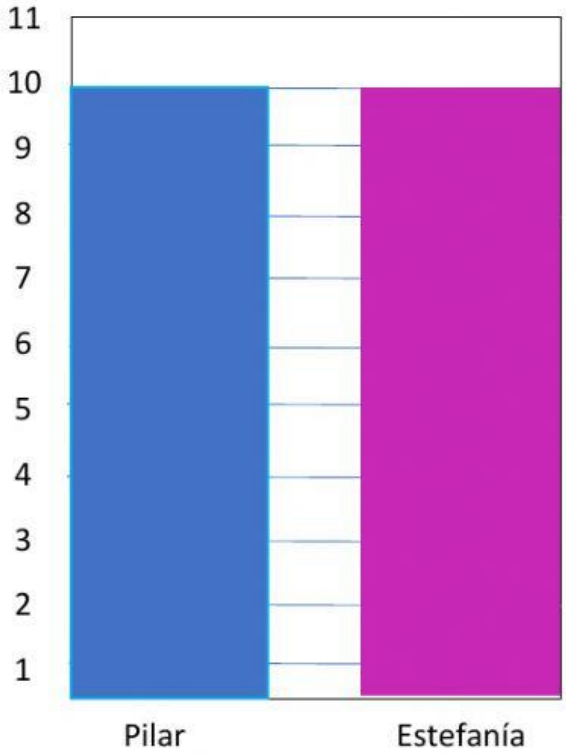

B.



LIVEWORKSHEETS

6.Rebeca cuenta la cantidad de personajes que aparecen en su libro de historias.

Tipo de personaje	Cantidad de presonajes
Princesas	6
Príncipes	12
Caballeros	10
Animales	22

¿Cuál tipo de personaje es más frecuente en el libro de Rebeca?

7.Un grupo de niños esta haciendo fila para ingresar a una obra de teatro. Observa.



Pilar Estiven Santiago Milena Simón

¿Quién está dos puestos delante de Santiago?

LIVEWORKSHEETS