MATEMÁTICAS 3

NOMBRE: _____

1. Completa la siguiente carrera operacional.

12.030 ÷ 22 × 3 = ◯

2. Lee atentamente el problema y escoge la respuesta correcta:

Las gallinas de una granja pusieron 30.650 huevos en una semana. Si cada gallina puso 15 huevos

¿Cuántas gallinas hay en la granja?

- ☐ En la granja hay 243 gallinas
- ☐ En la granja hay 2.143 gallinas
- ☐ En la granja hay 2.043 gallinas
- ☐ En la granja hay 2.033 gallinas

LIVEWORKSHEETS

3.Escoge la fracción correcta según el gráfico

- ☐ 3/4
- ☐ 4/4
- ☐ 4/3
- ☐ 1/4

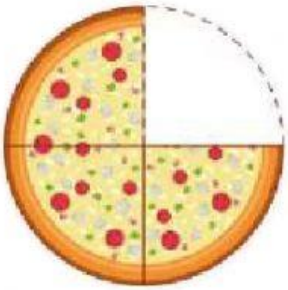

- ☐ 10 /5
- ☐ 5/5
- ☐ 5/10
- ☐ 5/8

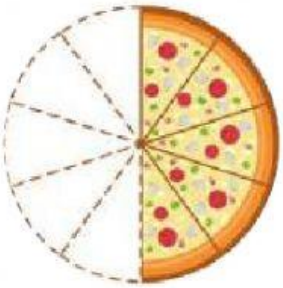

- ☐ 6/3
- ☐ 3/6
- ☐ 3/2
- ☐ 3/5

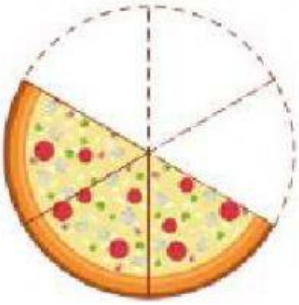

4. Según el gráfico responde, estas fracciones son homogéneas

- ☐ verdadero
- ☐ falso

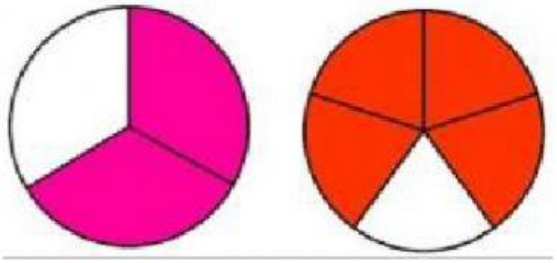

LIVEWORKSHEETS

5.Según el gráfico responde, estas fracciones son homogéneas

- ☐ verdadero
- ☐ falso

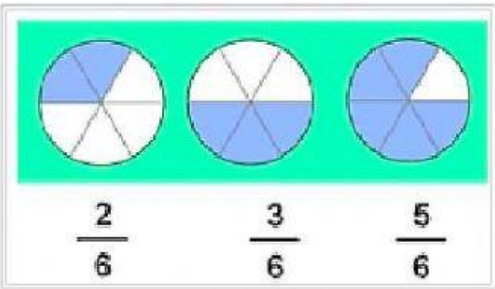

6. Escoge la respuesta correcta según el gráfico

- ☐ 3/5 > 4/5
- ☐ 1/5 < 4/5
- ☐ 1/5 > 4/5
- ☐ 4/5 < 1/5

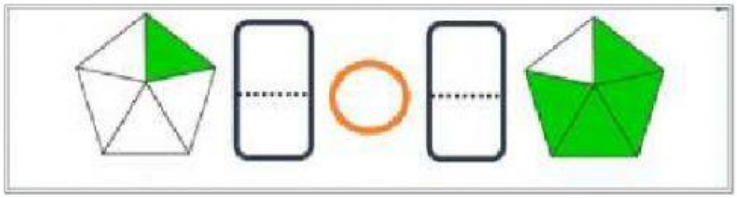

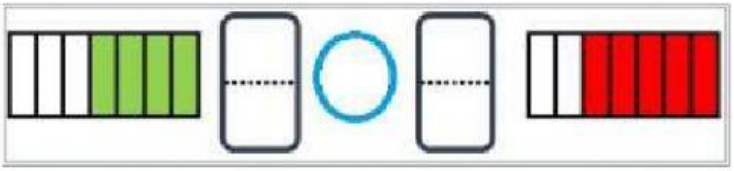

- ☐ 4/7 > 5/7
- ☐ 3/7 > 2/7
- ☐ 4/7 < 5/7
- ☐ 7/3 > 7/2

7.Según la siguiente imagen responde

- ☐ verdadero
- ☐ falso

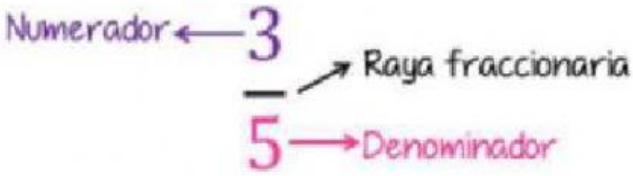

LIVEWORKSHEETS