GUIA DE ACTIVIDADES GRAFICOS SEXTO BÁSICO

OBSERVA EL GRAFICO Y RESPONDE LAS PREGUNTAS. (2 PTS CADA UNA)

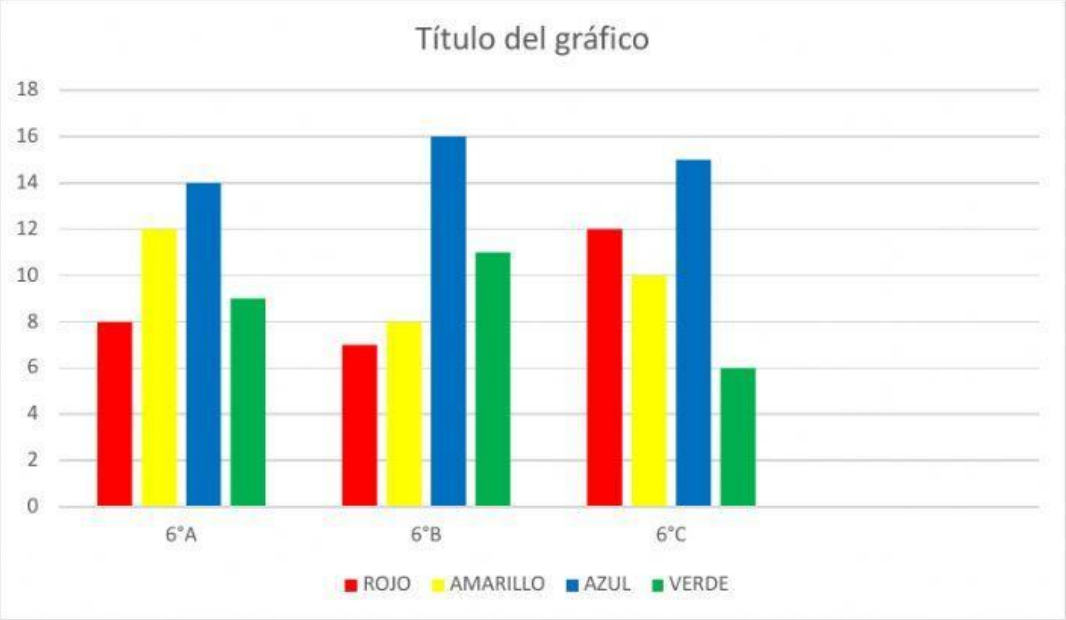

1. ¿Cuántos estudiantes en total prefieren el color Rojo?

Respuesta:

2. ¿Cuántos estudiantes del 6°B prefieren el color azul?

Respuesta:

3. ¿Cuántos estudiantes hay en el 6°C?

Respuesta:

4. ¿Cuántos estudiantes más de 6°A prefieren el color amarillo que del 6°B?

Respuesta:

5. ¿Qué curso tiene mayor preferencia por el color verde?

Respuesta:

LIVEWORKSHEETS

1. ¿Qué sabor de helado tiene mayor preferencia?
Respuesta:

2. ¿Qué sabor de helado tiene menor preferencia?
Respuesta:

3. ¿Qué porcentaje representa la preferencia de sabor tres leches y frutilla juntos?
Respuesta:

4. ¿Cuánta mas preferencia de helado de chocolate hay que de vainilla?
Respuesta:

LIVEWORKSHEETS

POSTRE	PREFERENCIAS
Frutas	5
Jalea	8
Helado	12
Flan	6

¿Cuál gráfico corresponde a la información de la tabla?

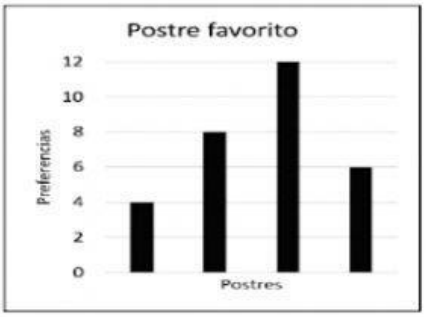

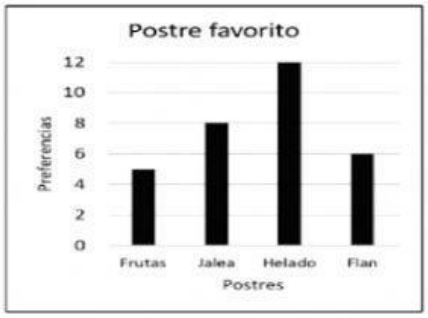

Según el gráfico anterior, ¿qué alternativa es correcta?

- ( ) Se atendieron 25 gatos
- ( ) Entre gatos y perros se atendieron 50 mascotas
- ( ) Se atendió 1 tortuga menos que conejos
- ( ) Se atendieron más conejos que perros

LIVEWORKSHEETS

Producto	Porcentaje
Yogurt	50%
Leche	25%
Flan	15%
Queso	10%

¿Qué gráfico representa los datos dados en la tabla?

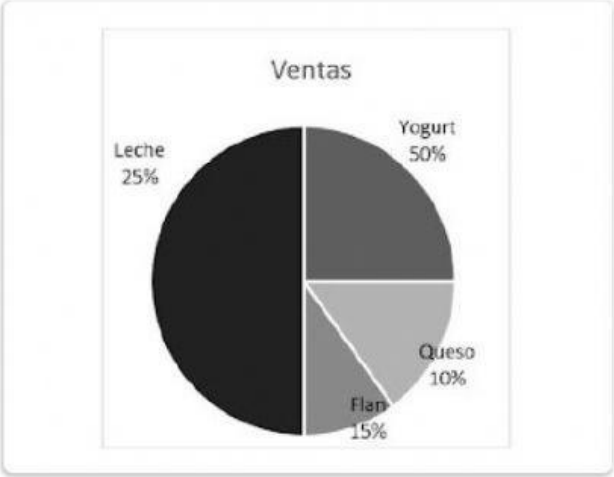

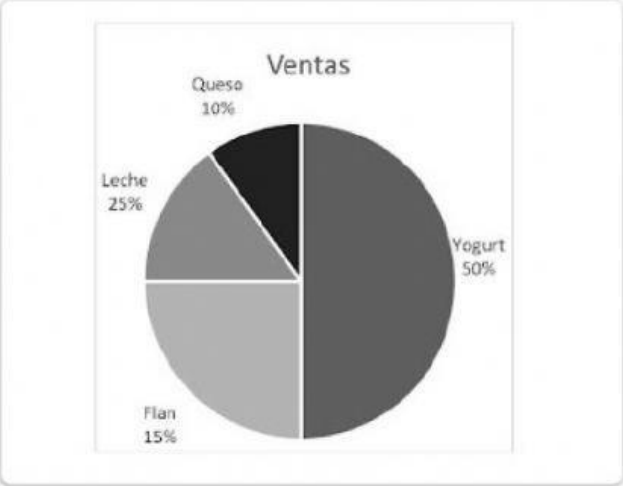

LIVEWORKSHEETS