FORMAS PLANAS Y ESPACIALES I

1. Clasifica estos polígonos según el número de lados:

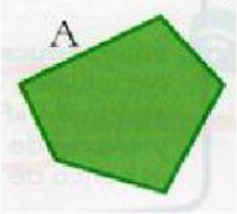

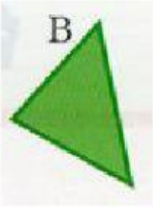



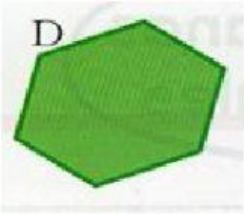

A: B: C: D:

2. Escribe cuántos lados, ángulos y diagonales tiene cada uno de estos polígonos:





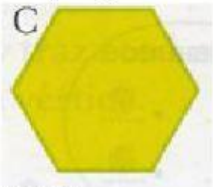

LADOS:
ÁNGULOS:
DIAGONALES

LADOS:
ÁNGULOS:
DIAGONALES:

LADOS:
ÁNGULOS:
DIAGONALES:

3. Clasifica estos triángulos según sus lados:

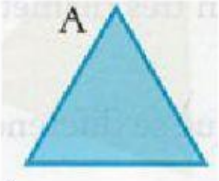

A: B: C:

4.-Clasifica los triángulos del ejercicio anterior según sus ángulos.

A: B: C:

5. El perímetro de un triángulo es de 54 cm. Uno de sus lados mide 17 cm y otro 22 cm. ¿Cuánto mide el tercer lado?

El tercer lado mide: cm.

6. Nombra estos cuadriláteros:



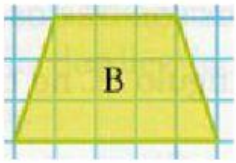

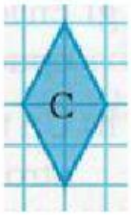

A: B: C:

LIVEWORKSHEETS