திரவத்தை அளக்கப் பயன்படும் கருவிகளுக்குச் சரியாகப் பெயரிடுக.

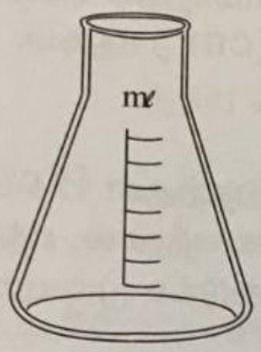

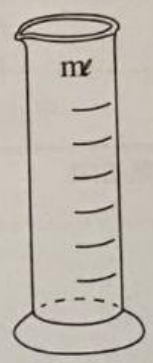

i) _____ ii) _____

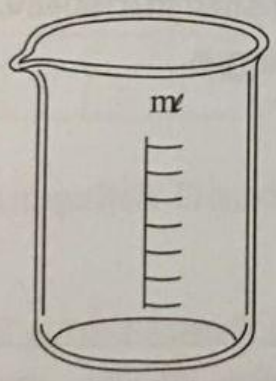

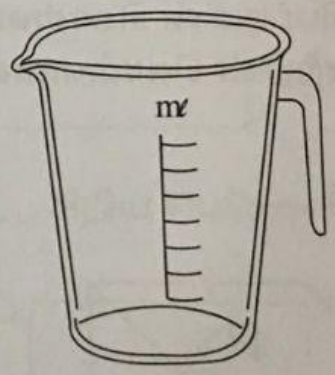

iii) _____ iv) _____

முகவை	கூம்புக்குடுவை	நீள் உருளை அளவி	நீர் அளவைக் கொள்கலன்

KP 6.1.5 திரவத்தின் கொள்ளளவைச் சரியான வழிமுறையைப் பின்பற்றிக் கணக்கிடுதல்.

LIVEWORKSHEETS