LKPD
TEMA 2
SUBTEMA 3
PEMBELAJARAN 5

Ibu Guru Aisyah

NAMA :
TANGGAL :

LIVEWORKSHEETS

Selamat Datang!
Kalian bersemangat mengikuti sesi belajar yang seru?

LIVEWORKSHEETS

PETUNJUK PENGGUNAAN E-LKPD INTERAKTIF

1. E-LKPD Interaktif berisi animasi dilengkapi dengan soal-soal berbasis permainan edukatif.
2. Langkah-langkah kegiatan:
3. Pengerjaan E-LKPD harus terhubung dengan internet.
4. Bacalah petunjuk setiap kegiatan E-LKPD.
5. Simaklah setiap video pembelajaran sebelum mengerjakan soal.
6. Soal-soal berbasis permainan edukatif bisa dijawab secara langsung melalui E-LKPD ini.
7. Ketika sudah selesai mengerjakan soal bisa langsung klik tombol "Finish" di paling bawah dan akan muncul otomatis kolom identitas diri peserta didik dan bisa langsung diisi. Kemudian masukkan Email sittimuharni37@guru.sd.belajar.id dan klik "Send".
8. Nilai akan keluar secara langsung di pojok kiri atas lembar E_LKPD

LIVEWORKSHEETS

MISI PERTAMA

PASANGKAN DAFTAR TUGAS KE PERAN KELUARGA YANG BENAR ...

Perhatikan gambar dibawah ini !

Membantu Ibu merawat tanaman	kewajiban sore hari membantu Ibu membersihkan lantai	Kegiatan pagi hari setelah bangun tidur	Kegiatan Ibu membantu mencari nafkah	Kewajiban Ayah mencari nafkah	Kewajiban anak agar menjadi anak yang cerdas

LIVEWORKSHEETS

Petunjuk

Carilah 10 kata dibawah dalam kotak yang tersedia

1. kerja
2. membantu
3. sekolah
4. memasak
5. ayah
6. ibu
7. anak
8. belajar
9. ibadah
10. sayang

m	k	e	r	j	a	d
e	d	f	a	s	s	d
m	e	m	a	s	a	k
b	e	r	t	e	w	w
a	d	d	d	k	d	g
n	s	s	d	o	d	a
t	i	b	u	l	c	y
u	v	b	a	a	e	a
d	s	c	g	h	w	h
a	n	a	k	d	f	h
i	b	a	d	a	h	d
b	e	l	a	j	a	r
a	s	d	e	r	t	y
s	a	y	a	n	g	[illegible]

LIVEWORKSHEETS

WOW

MISI KEDUA

Isi kotak pada garis bilangan untuk menyelesaikan penjumlahan di bawah ini!

1. Panjang sebuah ranting kayu 5 cm. Panjang ranting kayu berikutnya adalah 6 cm. Berapakah panjang kedua ranting kayu tersebut?

5 + 6 = 11

2. Edo mempunyai daun yang panjangnya 8 cm. Beni memegang daun yang panjangnya 8 cm. Berapakah panjang kedua daun tersebut?

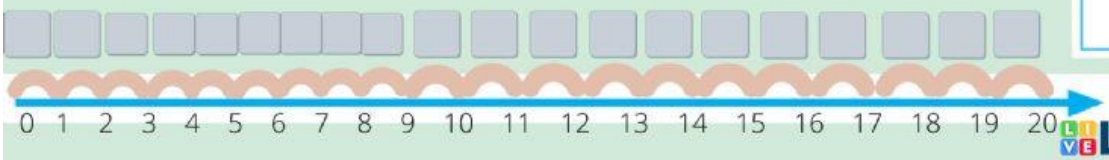

..... + ... = ...

LIVEWORKSHEETS

3. Panjang sehelai rumput 9 cm. Panjang sehelai rumput lainnya 4 cm. Berapakah panjang kedua rumput?

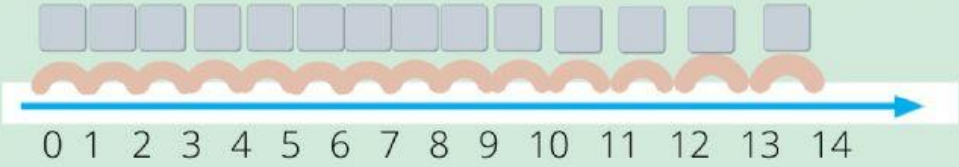

..... + ... = ...

4. Lani mengukur dua batang lidi 7 cm dan 8 cm. Berapakah panjang kedua lidi?

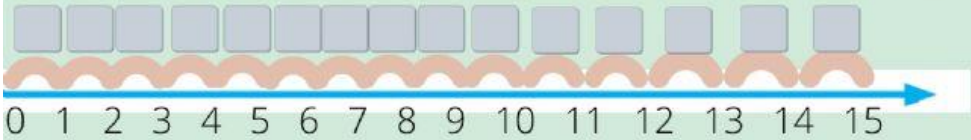

..... + ... = ...

5. Panjang sebuah cabai rawit 4 cm. Panjang cabai rawit berikutnya adalah 7 cm. Berapakah panjang kedua cabai rawit tersebut?

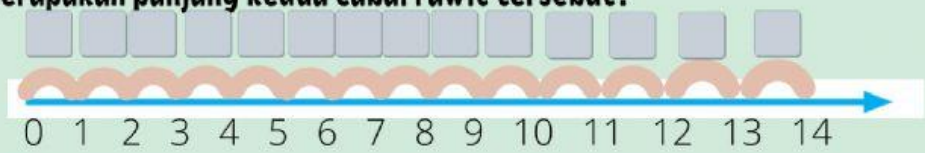

..... + ... = ...

LIVEWORKSHEETS