EL PERÍMETRO

1.- Responde los siguientes problemas:

ⓐ Los estudiantes deben correr alrededor de la zona marcada. ¿Cuántos metros corren?

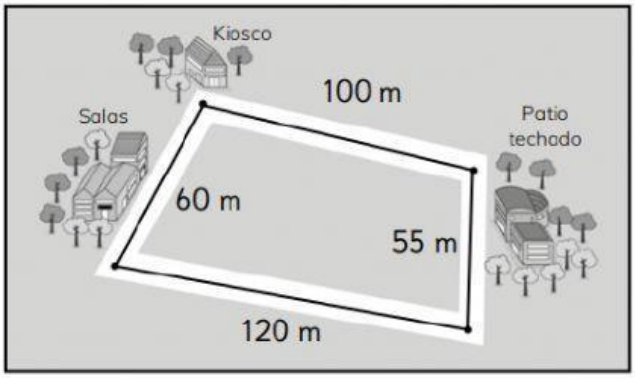

Respuesta: Los estudiantes corren m

ⓑ Se traza la zona segura para la escuela. ¿Cuántos metros tiene el contorno de esta zona?

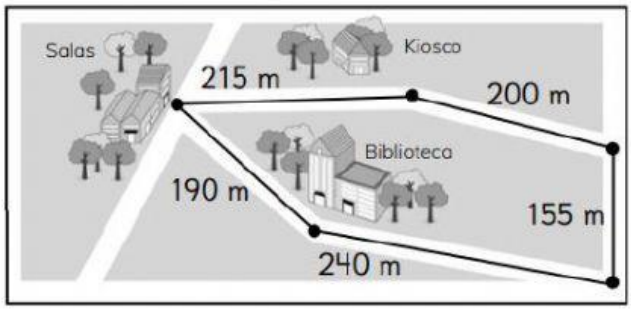

Respuesta: la zona tiene m

LIVEWORKSHEETS

2.- Calcula el perímetro de los siguientes objetos cuadrados.

P=



P=

3.- Completa la tabla. Considera 1cm × 1cm

ⓐ

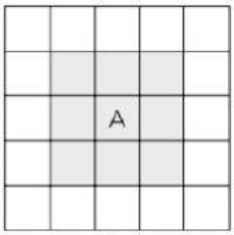

Figura	Longitud de cada lado	Perímetro
A		

ⓑ

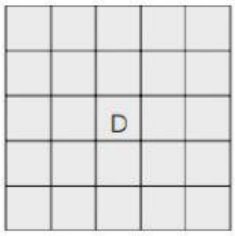

Figura	Longitud de cada lado	Perímetro
D		

4.- Calcula el perímetro.

P=

LIVEWORKSHEETS

P=

LIVEWORKSHEETS