PEMERINTAH KABUPATEN LUWU TIMUR
DINAS PENDIDIKAN
SDN 264 WAWONDULA
Jl. Gunung Agung No. 01 Wawondula, Kec. Towuti

PENILAIAN TENGAH SEMESTER (PTS) **Tahun Pelajaran : 2021/2022**	
Kelas / Semester : 1 / 1	**Nama :**
Tema : 1 (Diriku)	**Nomor Absen :**
Waktu : 120 Menit	**Tanggal : 07 September 2021**

1. Sebelum berangkat ke sekolah, Siti memberi _____ kepada orang tuanya.

A.3,2/5

2. Yang dilakukan keluarga Siti sebelum makan adalah _____

A.3,2/6

3. Setelah melukis, tangan dan kaki Udin kotor sekali.
   Beri tanda √ pada gambar yang sesuai.

A.3,2/4

4. Kita semua memiliki perbedaan, tapi perbedaan itu harus kita ...

A.3,3/1

A. syukuri

B. benci

C. hindari

5. Berdasarkan bacaan pada halaman 125, kesukaan anggota keluarga Beni berbeda-beda.

A.3,3/4 Ibu senang membaca _____

LIVEWORKSHEETS

6. Pasangkan nama-nama di bawah ini dengan huruf depan yang sesuai.

B.3,3/9

siti	b
beni	d
udin	e
dayu	l
edo	s
lani	u

B.3,9/4

7. Pada saat berkenalan, kita harus menyebut _____

8. Pasangkan nama-nama pancaindra dengan gambar yang sesuai.

B.3,4/4

hidung

mata

telinga

kulit

lidah

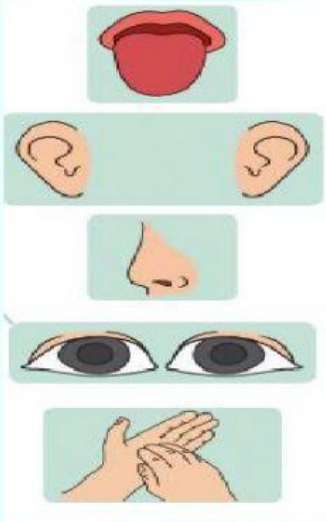

9. Salah satu cara merawat tubuh seperti gambar berikut adalah _____

B.3,4/5

10. Berilah tanda √ pada posisi yang tepat saat menulis, memegang pensil dan cara duduk yang tepat pada gambar berikut.

B.3,2/6

Menulis dengan posisi duduk yang benar.

Memegang pensil yang benar.

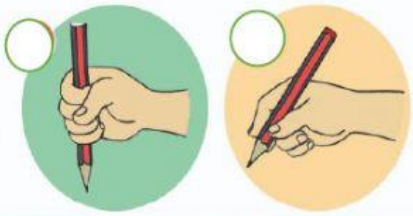

Meletakkan buku dengan tepat.

LIVEWORKSHEETS

11.

B.3,3/5

12. Lagu berikut bercerita tentang seorang _____

B.3,11/7

13.

C.3,1/4

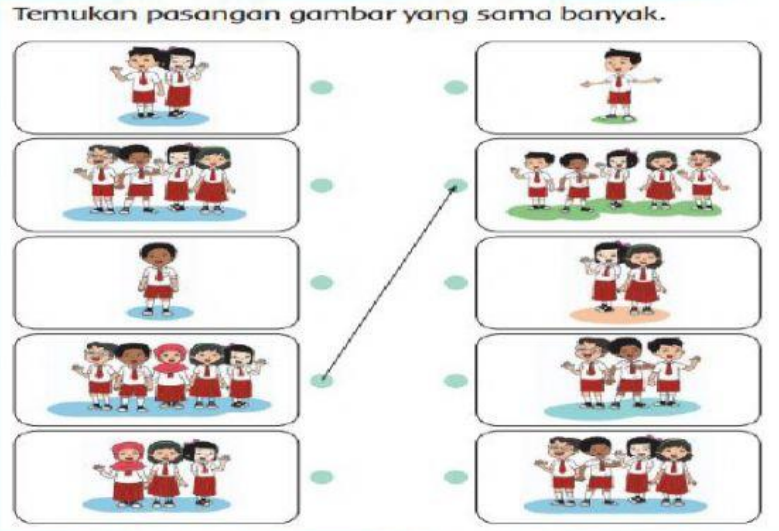

14. Hitunglah banyak benda berikut, kemudian tuliskan lambang bilangnnya.

C.3,2/6

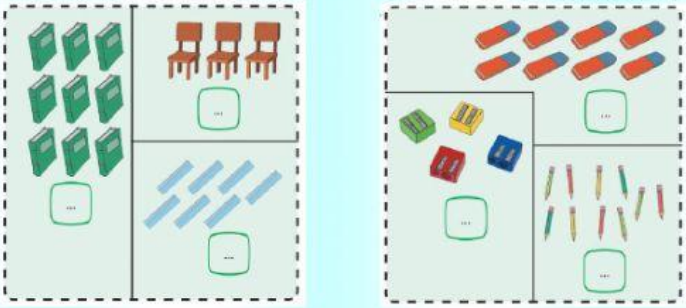

LIVEWORKSHEETS

15.

C.3,1/15

Pasangkan banyak jari dengan angka.

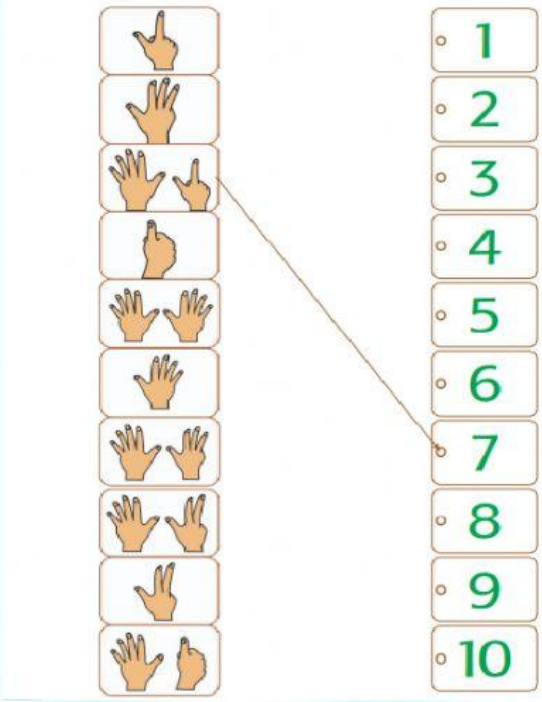

Beri tanda centang (✓) pada lambang bilangan yang sesuai.



16.

C.3,2/5

Tuliskan lambang bilangan yang sesuai dengan namanya.

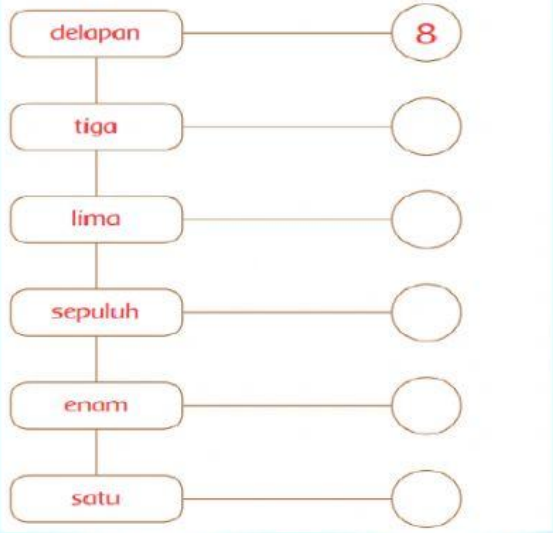

17. Pilihlah kata "**lebih dari**' atau '**kurang dari**' untuk soal berikut.

C.3,3/8

1 _____ 5	5 _____ 7
4 _____ 2	8 _____ 10
3 _____ 4	9 _____ 7
6 _____ 8	6 _____ 9

LIVEWORKSHEETS

18. C.3,3/6

Lengkapi urutan bilangan berikut.

1. 2, 3, 4, ___, ___, 7, 8
2. 10, 9, ___, ___, 6, 5
3. 5, 6, 7, ___, ___, 10

19. C.3,4/4



Di pohon pertama tumbuh 3 pepaya.
Di pohon yang kedua tumbuh 2 pepaya.

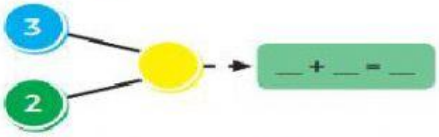

Banyak pepaya seluruhnya ada ____ buah.

20. Hitunglah benda berikut dan tulislah hasilnya pada kotak yang tersedia. C.3,4/5

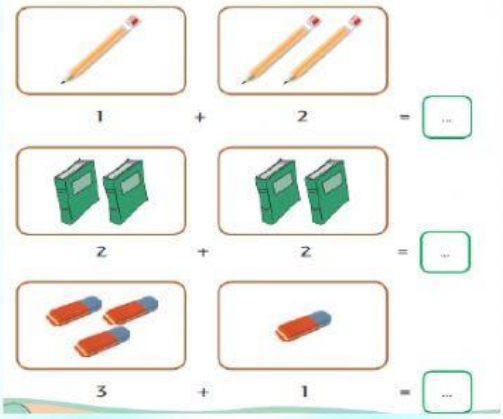

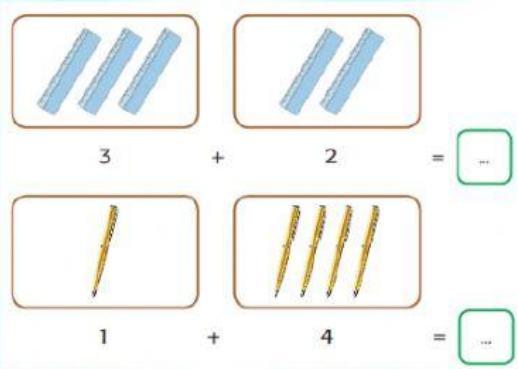

21. Judul lagu berikut adalah _____ F.3,2/4

Siapa Namamu?

Ciptaan A.T. Mahmud

1 2 | 3 . | 3 4 | 5 . 1
Sia pa kah na ma mu
5 4 | 3 . | 3 3 | 1 . ||
Na ma ku Si ti (sebutkan namamu)

22. Gambar berikut Lani dan temen-teman sedang _____ F.3,3/6

23. Gambar berikut adalah melukis dengan _____ F.3,1/4

LIVEWORKSHEETS

24. Bahan alam yang digunakan untuk membuat kerajinan berikut adalah dari kulit _____

F.3,4/6

25. Gerakan yang dilakukan Lani dan teman-teman pada gambar berikut adalah mereka sedang …

A'.3,1/1

A. Berlari

B. Berjalan

C. berlomba

26. Amati gambar tubuh bagian depan berikut. Gambar yang diberi panah adalah bagian tubuh yang tidak boleh disentuh oleh orang lain. Bagian tubuh tersebut adalah _____

A'.3,8/5

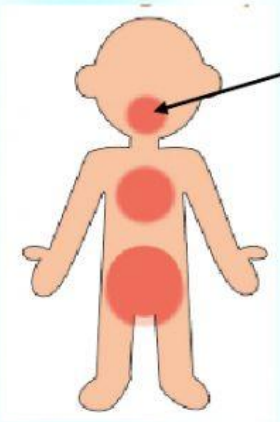

27. Urutkanlah cara mencuci baju yang benar.

A'.3,8/5

28. Dalam meniti balok, tubuh kita harus _____

A'.3,4/8

LIVEWORKSHEETS